Тиждень 17

(ім'я)

Запиши числові дані задачі. Познач шукане знаком питання. Доповни схему та рівність. Запиши знайдене число.



На день народження Буквика прилетіли 4 оси та 5 мух. Скільки всього комах прилетіло до Буквика?

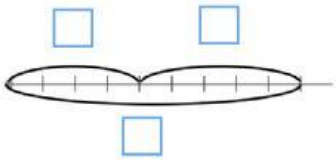

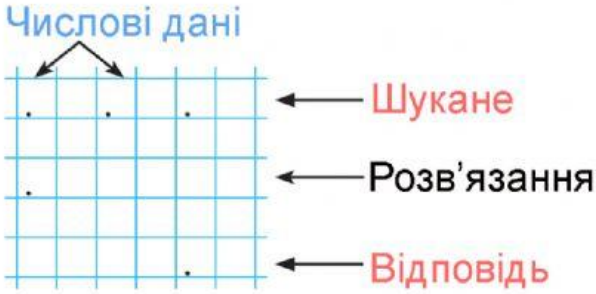

У ведмедя було 7 діжок із медом. За зиму він з'їв 2 діжки. Скільки діжок із медом залишилось у ведмедя ?

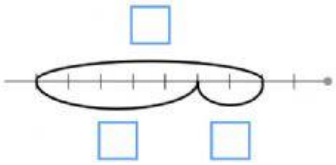

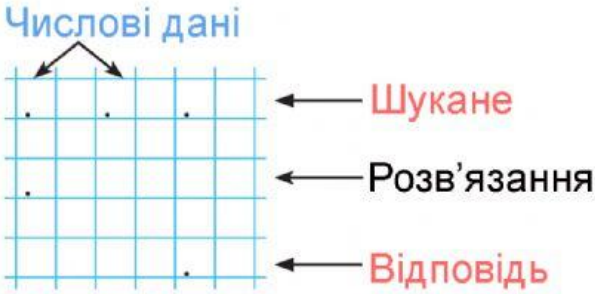

Пригадай скільки днів у тижні?.Добери відповіді на питання:

Якщо сьогодні четвер, то який день буде завтра?

Який день сьогодні, якщо вчора був вівторок?

Який день сьогодні, якщо завтра буде середа?

Якщо сьогодні понеділок, то який день був учора?