LA FUNCIÓN DE REPRODUCCIÓN

1.- Selecciona la opción correcta según corresponda a un carácter sexual primario o un carácter sexual secundario.

Voz aguda	**Pene**	**Útero**
Testículo	**Barba**	**Caderas anchas**
Vello en el cuerpo	**Vagina**	**Mamas desarrolladas**

2.- Completa este esquema del aparato reproductor femenino con el nombre de cada órgano.

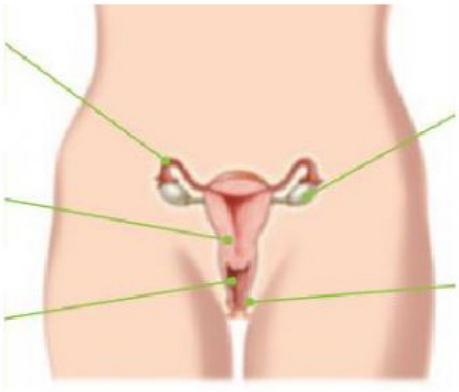

3.- Selecciona el órgano del aparato reproductor femenino que cumple cada función.

a.- Parte externa del aparato reproductor femenino:

b.- Comunica los ovarios con el útero:

c.- Producen los óvulos:

d.- Comunica el útero con el exterior:

e.- Es el órgano en el que se desarrolla en bebé durante el embarazo:

4.- Completa este esquema del aparato reproductor masculino con el nombre de cada órgano.

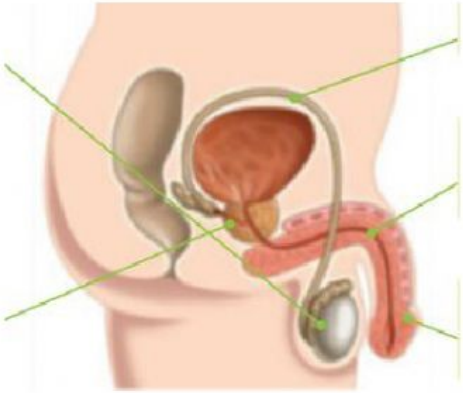

5.- Selecciona el órgano del aparato reproductor masculino que cumple cada función.

a.- Glándula que fabrica un líquido que sirve de alimento y transporte al espermatozoide:

b.- Conducen los espermatozoides desde los testículos a la uretra:

c.- En su extremo desemboca la uretra:

d.- Lleva los espermatozoides al exterior:

e.- En ellos se fabrican los espermatozoides:

6.-Escribe el nombre de estas células y selecciona sus características.

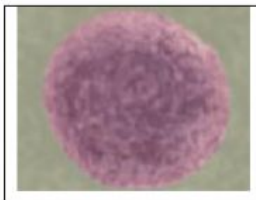 Nombre:	Nombre:
Son células pequeñas	**Son células pequeñas**
No se mueven	**No se mueven**
Se producen en los ovarios	**Se producen en los ovarios**
Se mueven	**Se mueven**
Son células grandes	**Son células grandes**
Se producen en los testículos	**Se producen en los testículos**
Forma de esfera	**Forma de esfera**
Cabeza de pequeño tamaño y con una cola larga	**Cabeza de pequeño tamaño y con una cola larga**

7.- Completa este texto.

La es la unión de un (célula reproductora femenina) con un (célula reproductora masculina) . Tiene lugar en las . Se forma una nueva célula llamada , que es la primera célula del nuevo ser. Se divide múltiples veces y se transforma en una pequeña esfera llamada . El embrión se adhiere a las paredes del .

A los tres meses el embrión recibe el nombre de .

Si el óvulo no es fecundado es expulsado al exterior junto con una pequeña cantidad de sangre. A este proceso se llama .

8.- Completa cada frase:

a.- En el , el bebé sale a través de la vagina de la madre.

b.- La unión entre la placenta y el embrión es

c.- El periodo de nueve meses que pasa desde que el embrión se adhiere a la pared del útero hasta el nacimiento del bebé se llama

d.- El embrión está envuelto por una bolsa llena de un líquido llamado líquido

e.- El periodo durante el cual los bebés sólo se alimentan de leche se llama

9.- Identifica a que fase del parte corresponde cada una

a.- Se expulsa la placenta

b.- El cuello del útero se abre poco a poco

c.- El bebé sale al exterior