PROVA DI MATEMATICA - *Scuola Primaria* - **Classe Seconda - Fascicolo 1**

Ministero dell'Istruzione
dell'Università e della Ricerca

INVALSI
Istituto nazionale per la valutazione
del sistema educativo di istruzione e di formazione

Rilevazione degli apprendimenti

Anno Scolastico 2016 – 2017

PROVA DI MATEMATICA

Scuola Primaria

Classe Seconda

Fascicolo 1

Spazio per l'etichetta autoadesiva

D1. Lisa ha due tipi di caramelle.

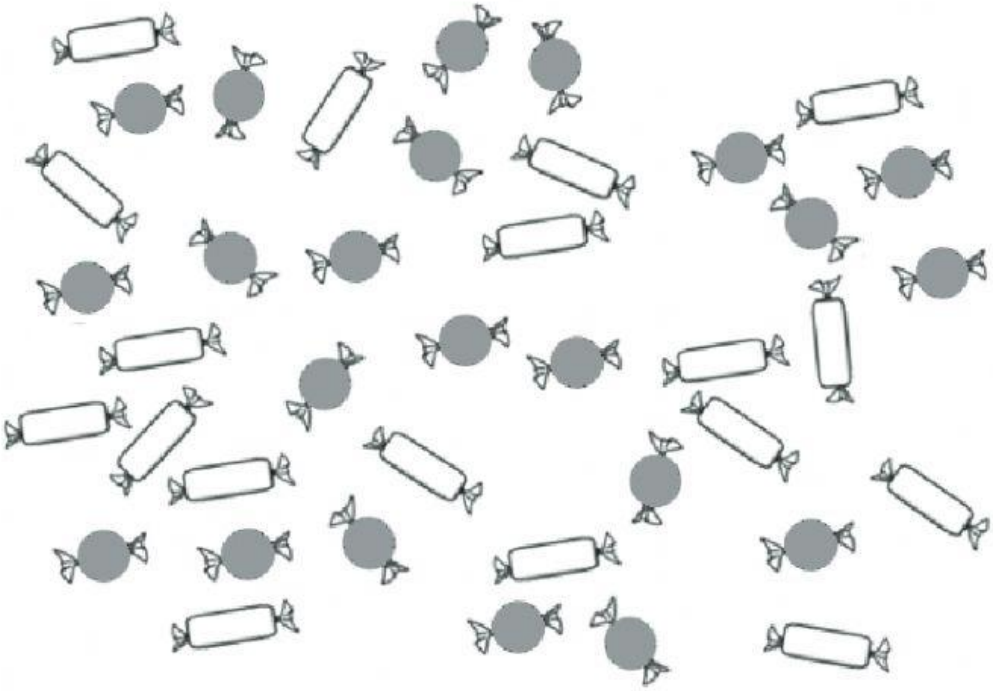

Quante caramelle di ogni tipo ha Lisa?

.....

.....

D2. Nella classe di Franca ci sono 20 alunni.
Tutti i giorni vengono registrate le presenze su un tabellone.

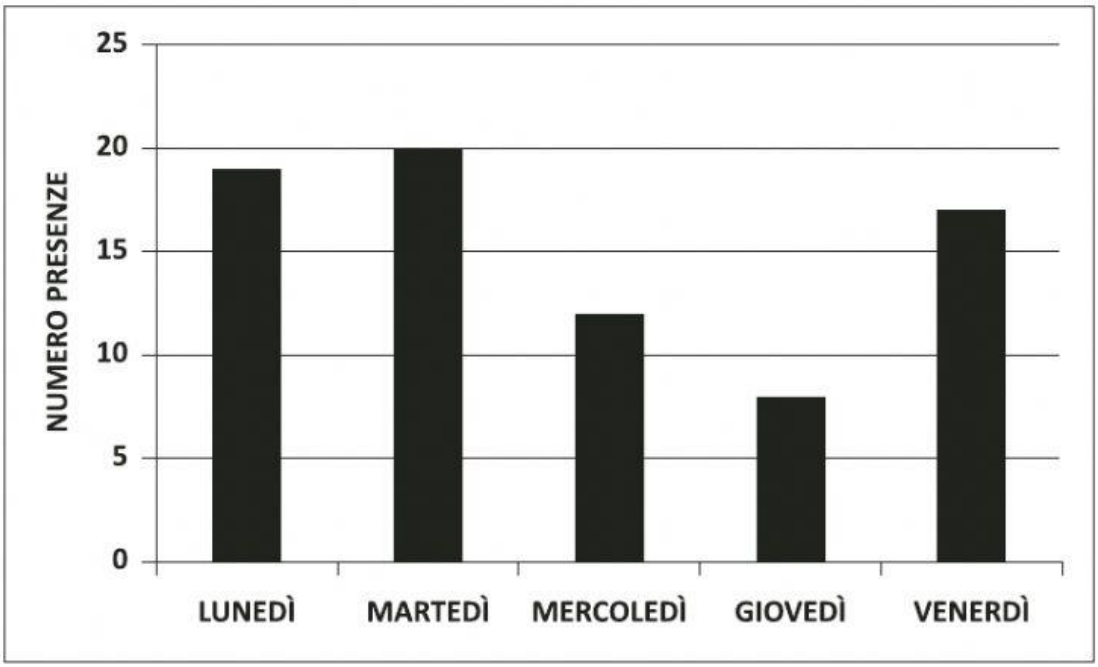

a. In quale giorno tutti gli alunni erano presenti?

Risposta: .....

b. In quale giorno ci sono stati più di 10 alunni assenti?

Risposta: .....

D3. Scrivi in ordine crescente (dal più piccolo al più grande) i seguenti numeri.

132 23 312 123 32

....

D4. Erik, per creare le sue costruzioni, utilizza questi tipi di mattoncini:

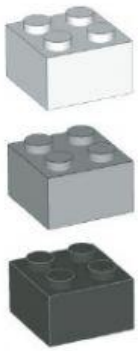

Ecco la costruzione che Erik ha fatto.

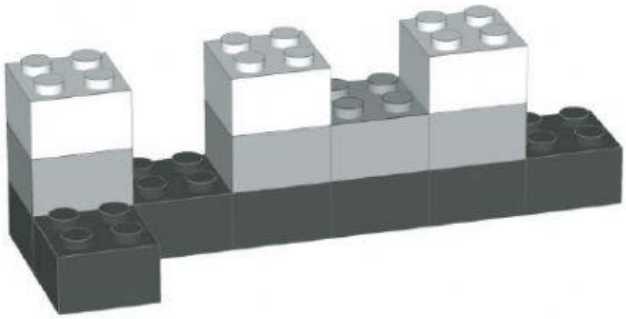

CONTINUA ALLA PAGINA A FIANCO

a. Come si vede la costruzione di Erik dall'alto?



☐ A ☐ B ☐ C

b. Quanti pezzi ha usato in tutto Erik?

Risposta: ..... pezzi

M1702D0500

D5. In una classe ci sono 24 alunni. Osserva questa tabella.

	MASCHI PRESENTI	FEMMINE PRESENTI	ASSENTI
LUNEDÌ	13	11	0
MARTEDÌ	13	.....	4
MERCOLEDÌ	10	9	.....

Nella tabella mancano due numeri.

Scrivi i numeri che mancano.

M1702D0600

D6. Un coniglio e una rana cominciano a saltare nello stesso momento.
Il salto del coniglio è lungo il doppio di quello della rana.
Ogni volta che il coniglio fa un salto, anche la rana fa un salto.

In quale casella si incontrano?

Risposta: nella casella .....

M1702D0700

D7. Un pittore disegna una barca che si riflette nell'acqua.

Come apparirà il nome Maria nel riflesso?

A. ☐ MARIA

B. ☐

C. ☐ 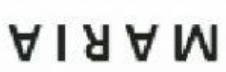

M1702D0800

D8. Osserva la linea dei numeri.

Scrivi nella casella vuota il numero che manca.

M1702D0900

D9.

Che ora segna l'orologio?

A. ☐ 8:20

B. ☐ 4:40

C. ☐ 3:40

M1702D1000

D10. Quale numero ha la cifra 8 nella posizione delle decine?

A. ☐ 805

B. ☐ 580

C. ☐ 508

M1702D1100

D11. Sandra ha nel borsellino le seguenti monete.

Quanti euro ha Sandra in tutto nel borsellino?

A. ☐ 2 euro e 90 centesimi

B. ☐ 1 euro e 11 centesimi

C. ☐ 3 euro e 40 centesimi

M1702D1200

D12. Quale cifra è nascosta dalla macchia?

$$\begin{array}{r} 25\ + \\ \bullet 7\ = \\ \hline 62 \end{array}$$

Risposta: .....