8 ఇది ఎంత పొడవు ఉంది? **How long is this?**

Class:- IV
Subject:- Maths

Name :-

I. కింది వస్తువుల కొలతలను తెలపండి. Measure these objects.

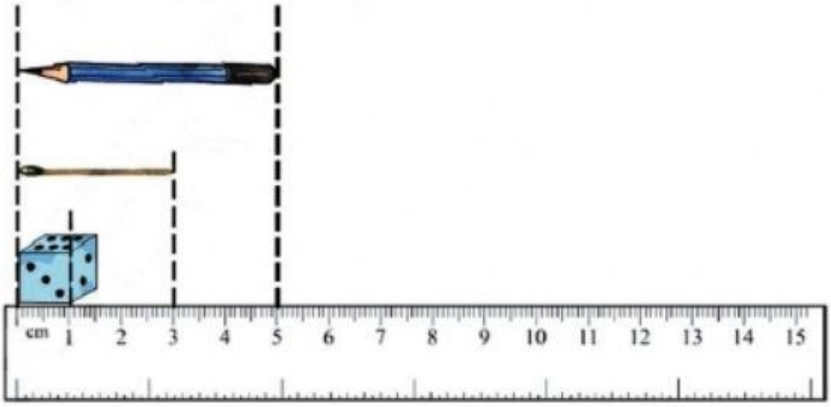

1. పెన్సిల్ పొడవు-Length of the pencil= సెం.మీ-cm
2. అగ్గిపుల్ల పొడవు-Length of the matchstick= సెం.మీ-cm
3. పాచిక పొడవు-Length of the dice= సెం.మీ-cm

II. కోడి పిల్లను తన తల్లి వద్దకు చేరే దగ్గరి దారి చూపండి :

Help the chicken to find the shortest to its mother.

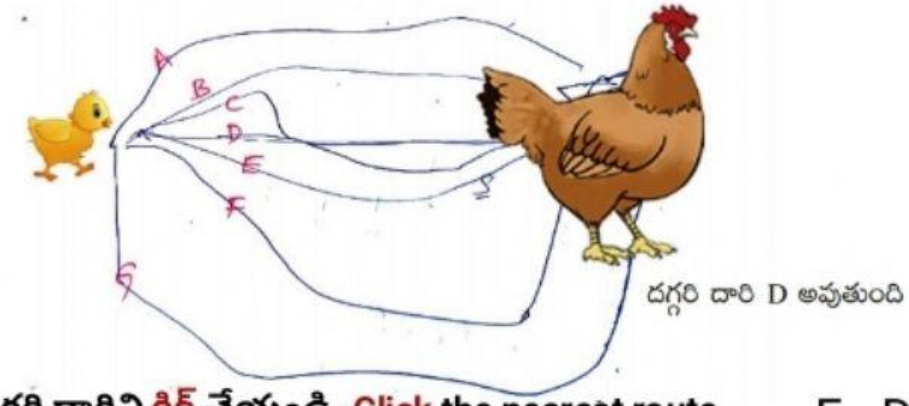

దగ్గరి దారిని క్లిక్ చేయండి.-Click the nearest route. F D A G

III. కింది గాలి పటములలో ఎవరి గాలి పటము ఎక్కువ దూరం పైకి ఎగిరింది?

Among the following kites, whose kite is flying high? పేరు పై క్లిక్ చేయండి.-Click on the name.

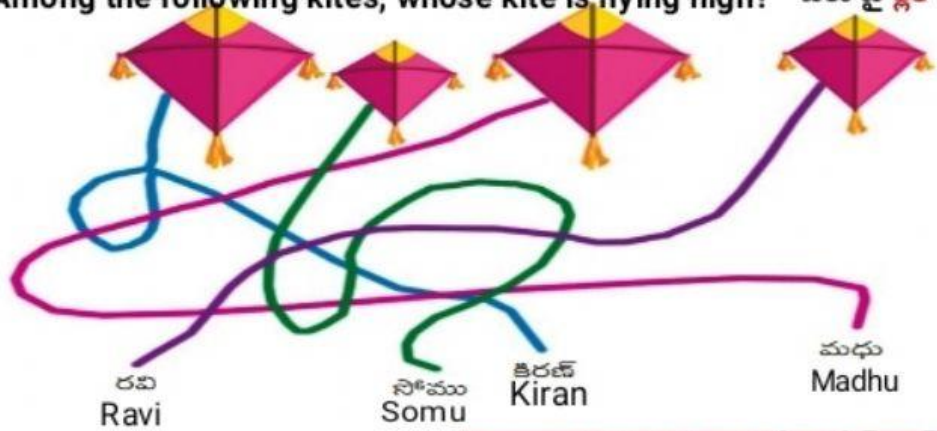

పిల్లలూ..10/10 వచ్చాక మీ నోట్ బుక్ లో రాసుకోండి.

Designed by MAHESH MACHARLA.SGT.MPPS KOTHAPET O/C. JAGTIAL.