POSICIÓN DE UNA CIRCUNFERENCIA RESPECTO DE OTRA CIRCUNFERENCIA

Observa los dibujos y elige qué posición tiene la circunferencia verde respecto a las otras.

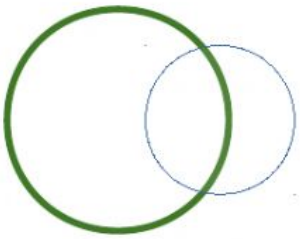

La circunferencia verde es

respecto a la azul.



La circunferencia verde es

respecto a la violeta.

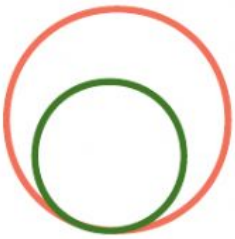

La circunferencia verde es

respecto a la rosa.



La circunferencia verde es

respecto a la amarilla.

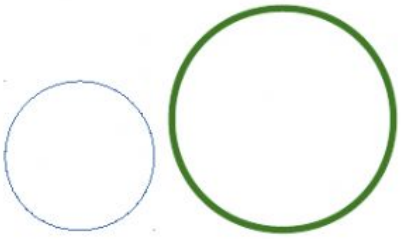

La circunferencia verde es

respecto a la azul.

La circunferencia verde es

respecto a la roja.