대각선을 알아볼까요

공부한 날 월 일

1 정사각형에 대각선을 옳게 나타낸 것에 ○표 하세요. 1번 꼬시



( )

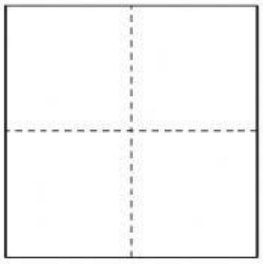

( )

2 각각의 도형에 대각선을 모두 그어 보세요.



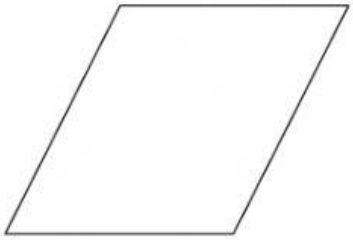

3 대각선의 수가 많은 순서대로 기호를 써 보세요.

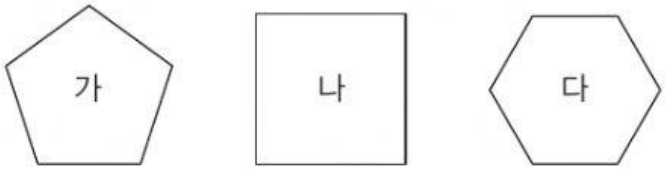

( )

깜짝문제

0.2+0.7
1.9+2.7
3.7−0.8
4.5−2.9

4 두 대각선이 서로 수직으로 만나는 사각형을 모두 찾아 ○표 하세요.

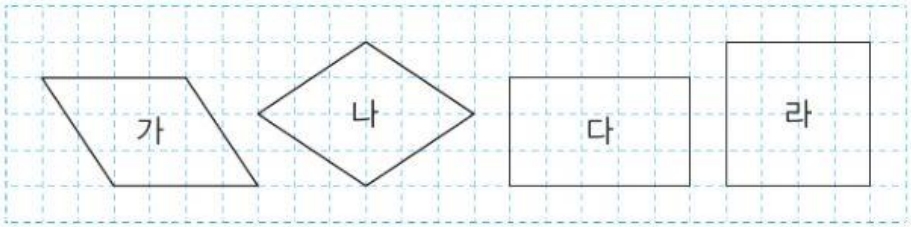

(　　) (　　) (　　) (　　)

5 □ 안에 들어갈 알맞은 말을 써넣으세요.

6 표시된 꼭짓점에서 그을 수 있는 대각선을 모두 그어 보고, 알게 된 점을 써 보세요.

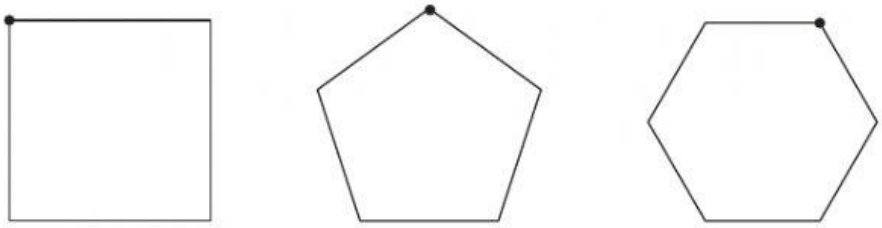

알게 된 점 _____