Estudia, mira tus apuntes y contesta.

ÉXITOS

1) Con respecto a la célula animal y vegetal: Relaciona con una flecha la columna A con la columna B

A	B
Pared celular	Célula animal
Organelo celular que almacena el pigmento de le da el color verde a las plantas	Es una capa resistente que soporta las diferencias de presión osmótica de la célula
Célula vegetal	Membrana celular
Capa formada de fosfolípidos que cumple la función de permeabilidad selectiva	Tipo de célula eucariota que están compuestos muchos tejidos vegetales
Lisosoma	Organelo que es una vesícula que contiene enzimas
Tipo celular eucariota que forma parte de los tejidos animales	Cloroplastos

2) Arrastra la estructura donde corresponda.

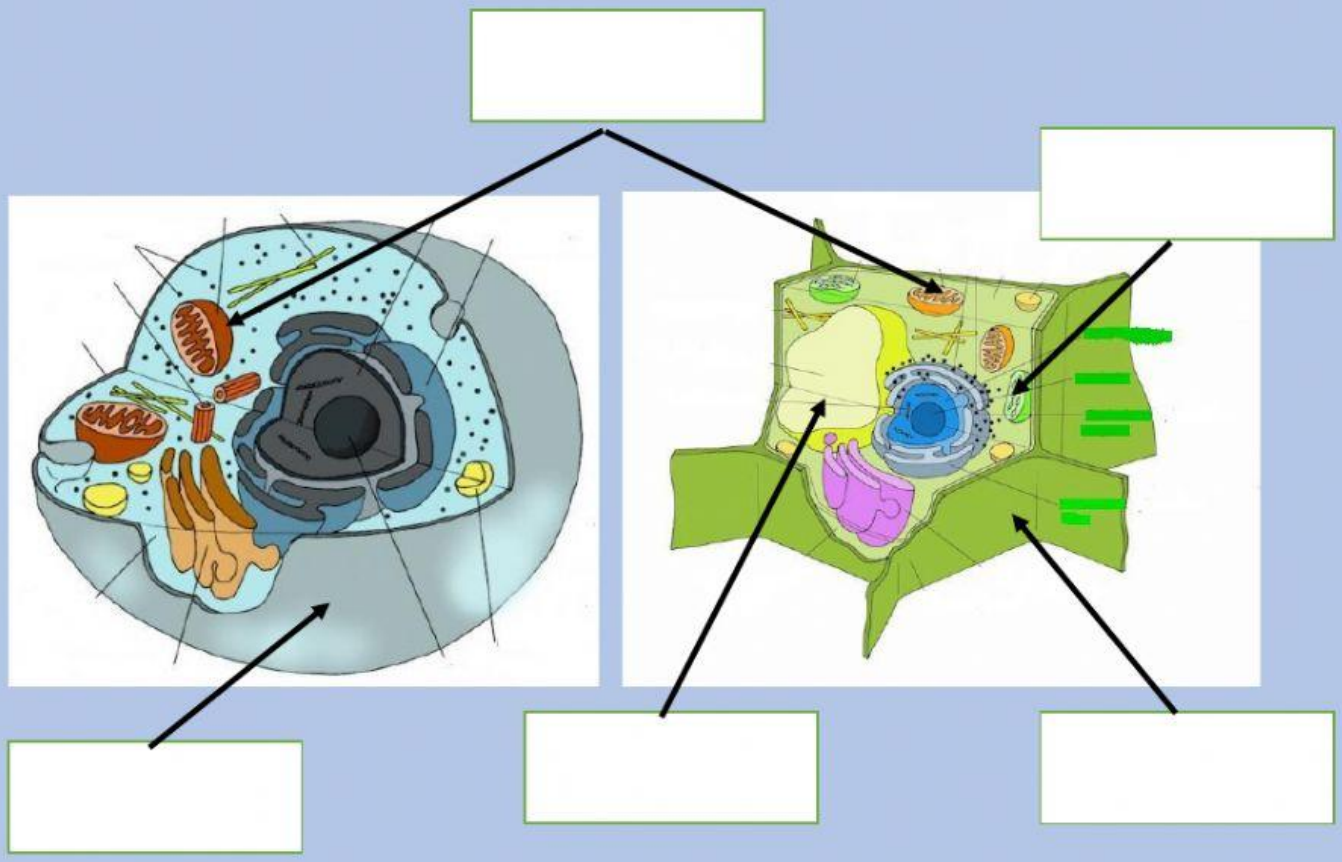

PARED CELULAR

MEMBRANA PLASMÁTICA

MITOCONDRIAS

CLOROPLASTOS

VACUOLA

3) Relaciona el ser vivo con el reino en el que se agrupa.

REINO MONERA

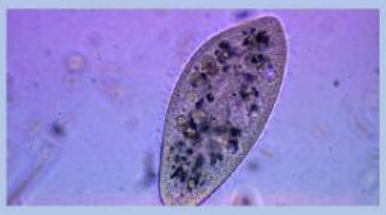

REINO PROTISTA

REINO FUNGI

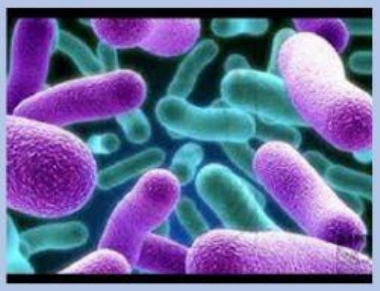

REINO PLANTA

REINO ANIMAL