PROSTE, PÓŁPROSTE, ODCINKI I ŁAMANE – SPRAWDŹ SIĘ

Imię i nazwisko:

1. **Przyjrzyj się rysunkowi zamieszczonemu poniżej i oceń prawdziwość zapisanych zdań. Zaznacz P, jeśli zdanie jest prawdziwe, lub F – jeśli jest fałszywe.**

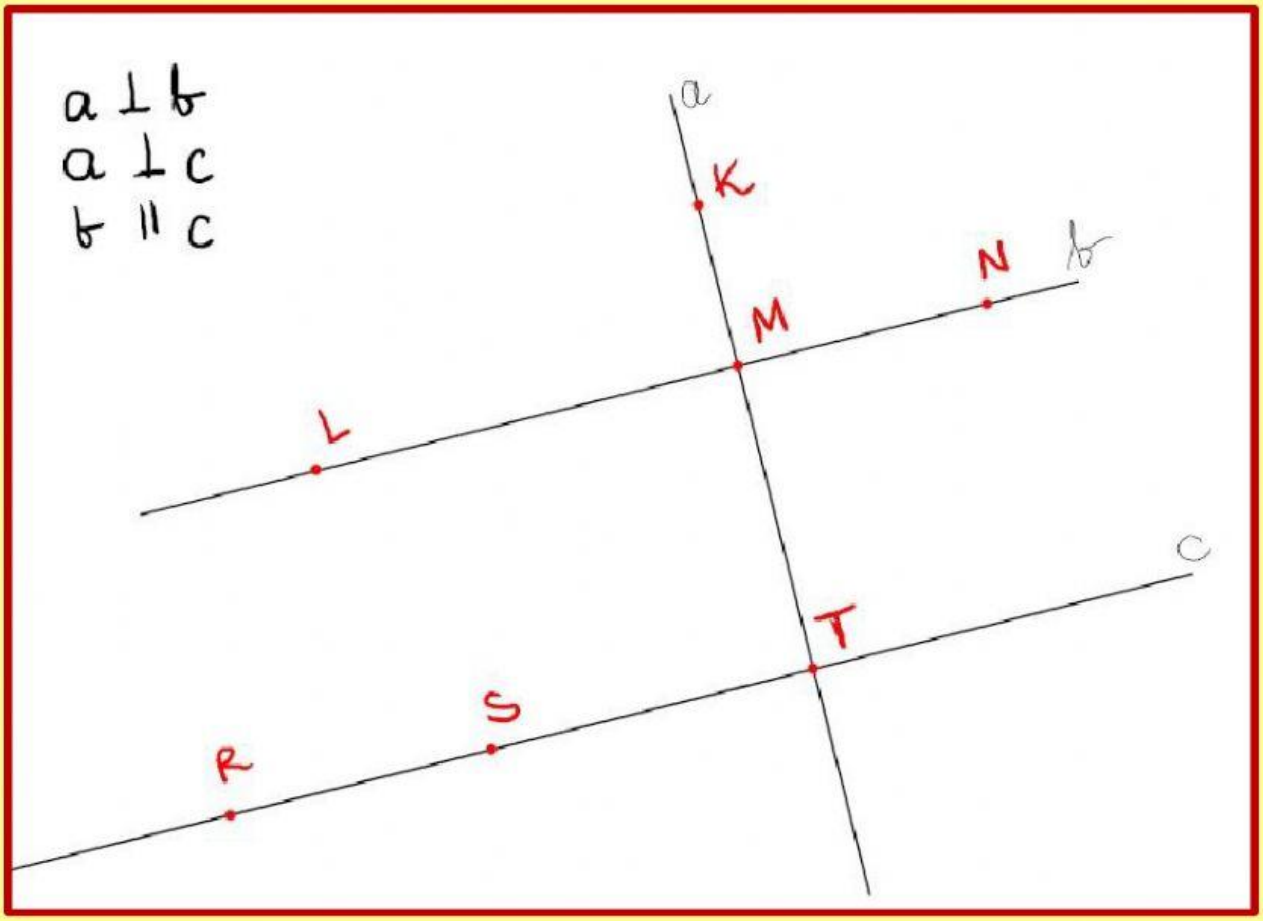

KM ∥ MT	P	F
Odcinek LM jest równoległy do odcinka ST	P	F
LN ∥ KM	P	F
Odcinek MN jest prostopadły do odcinka ST.	P	F
LM ⊥ MT	P	F
Odcinek KT jest prostopadły do odcinka LN.	P	F

2. **Podpisz narysowane figury geometryczne.**



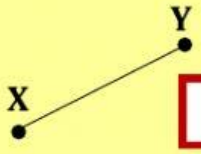

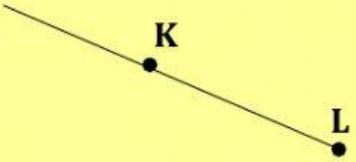



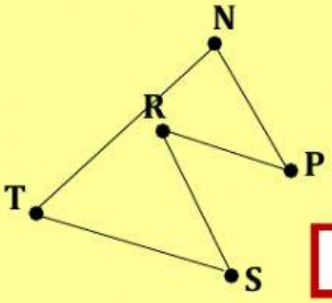

3. **Określ prawdziwość podanych zdań. Zaznacz P, jeśli zdanie jest prawdziwe lub F – jeśli jest fałszywe.**

Proste prostopadłe przecinają się w jednym punkcie.	P	F
Dwie proste równoległe nie mają punktów wspólnych lub mają ich nieskończenie wiele.	P	F
Dwa odcinki są równoległe, jeżeli leżą na prostych prostopadłych.	P	F
Dwa odcinki prostopadłe zawsze przecinają się w jednym punkcie.	P	F
Proste równoległe przecinają się w jednym punkcie.	P	F