PRUEBA VERIFICACIÓN DE CONOCIMIENTOS

Camilo observó un sólido desde distintas posiciones. Esto fue lo que Camilo observó:

Desde el lado.

Desde el frente.

Desde arriba.

15. ¿Cuál de los siguientes Sólidos observó Camilo?

A.

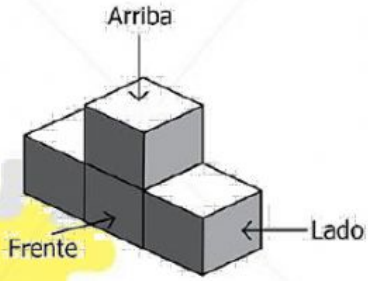

B.

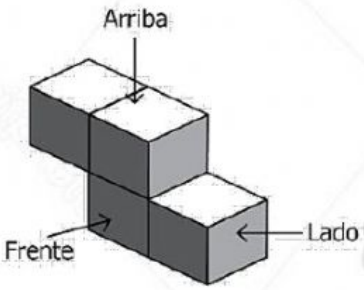

C.

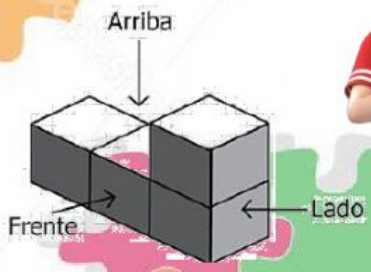

D.

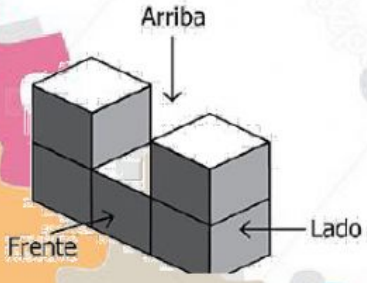

LIVEWORKSHEETS