# DESTRA E SINISTRA

1 Osserva, leggi ed esegui.

**Metti una X sull'**auto che va verso destra.

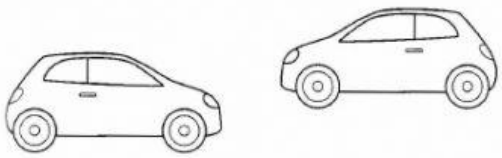

**Metti una X sul**treno che va verso sinistra.

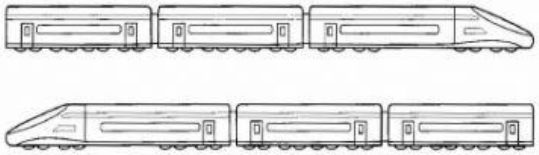

2 Osserva e indica se le cose elencate si trovano a sinistra (S) o a destra (D).

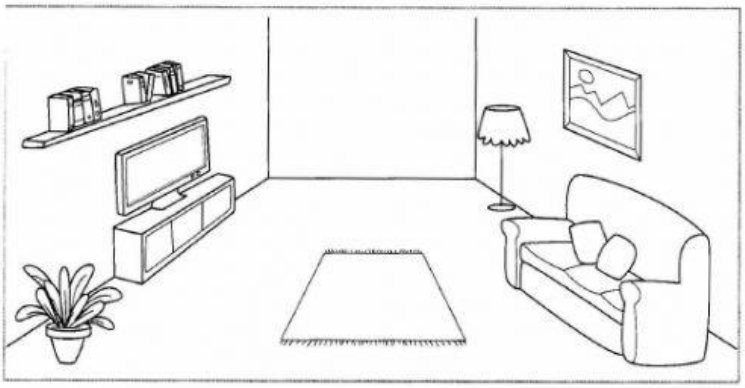

- ☐ lampada
- ☐ televisore
- ☐ quadro
- ☐ pianta
- ☐ mensola
- ☐ divano

3 Osserva il disegno e mettiti nella stessa posizione di Federico, poi completa segnando con una X.




Federico nella mano destra ha:

- ☐ il gesso
- ☐ il libro

Federico nella mano sinistra ha:

- ☐ il gesso
- ☐ il libro