Quelle heure est-il ?

- Reliez les horloges qu'ont la même heure.

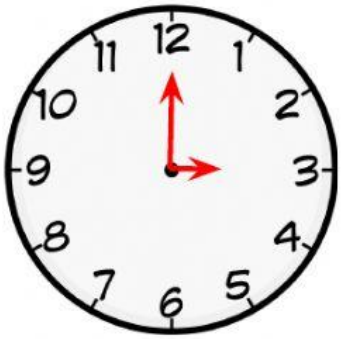

Il est douze heures et demie

12 :30

Il est une heure vingt

01 : 20

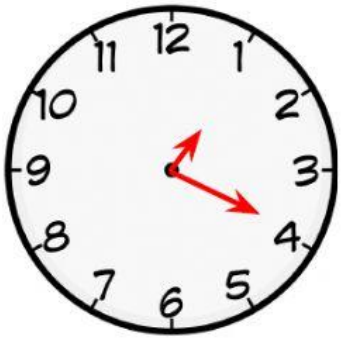

Il est sept heures dix

07 : 10

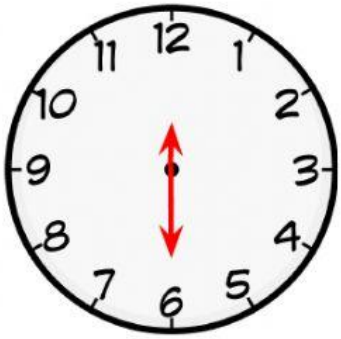

Il est trois heures pile

03 : 00