- O gráfico abaixo representa a venda de enfeites de Natal de uma fábrica durante uma semana.

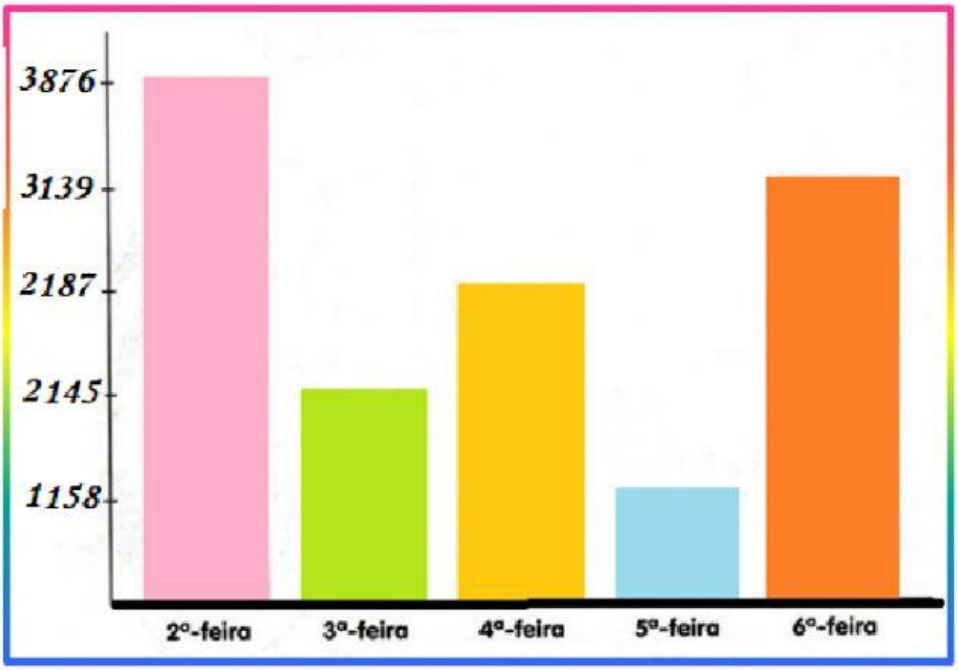

- Preencha a tabela de acordo com o gráfico:

Dias da Semana	Quantidade de enfeites vendidos
Segunda-feira	
Terça-feira	
Quarta-feira	
Quinta-feira Sexta-feira	

a. Qual dia vendeu mais enfeites?_____

b. Qual dia vendeu menos enfeites?_____

c. Quantos enfeites foram vendidos Segunda e Sexta?

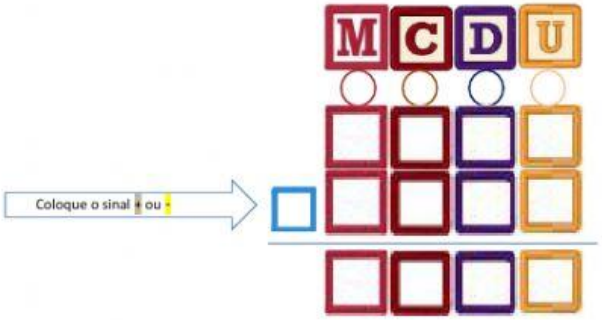

Resposta:_____
_____

d. Segunda-feira vendeu quantos enfeites a mais que quinta-feira?

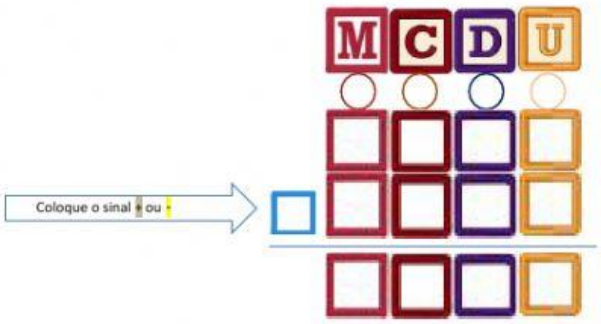

Resposta:_____
_____

e. Quinta-feira vendeu quantos enfeites a menos que Terça-feira?

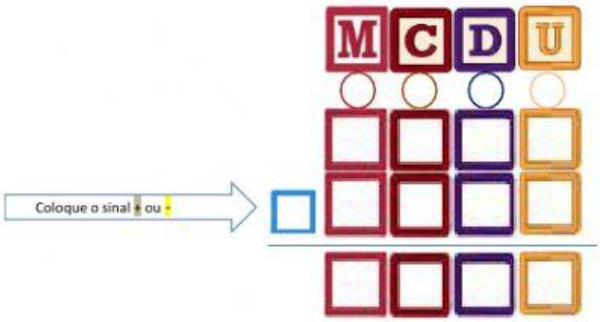

Resposta:_____
_____

f. Quantos enfeites foram vendidos Quarta e Quinta-feira?

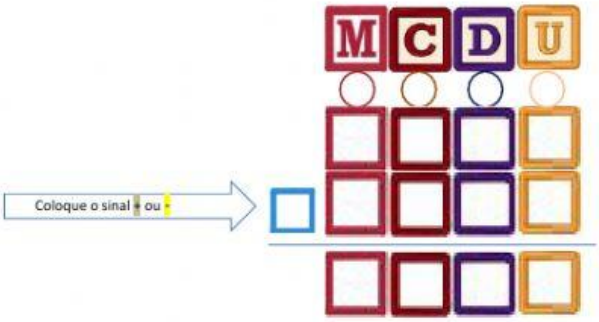

Resposta:_____
_____

g. A quantidade vendida na Terça-feira foi enviada para uma loja. Quem recebeu a compra verificou que 129 enfeites estavam quebrados. Quantos enfeites estavam inteiros?

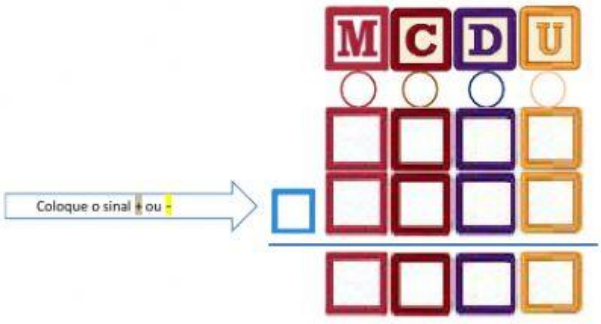

Resposta:_____
_____