الوحدة السادسة التحويلات	عنوان الدرس : الانعكاس	أهداف الدرس: يمثل الانعكاس بيانياً على المستوى الإحداثي

1. مثّل $\triangle ABC$ بيانيًا بالرؤوس $A(5, 1)$ و $B(1, 2)$ و $C(6, 2)$ وكذلك انعكاسه عبر المحور x. ثم أوجد إحداثيات الصورة. (المثالان 1 و2)

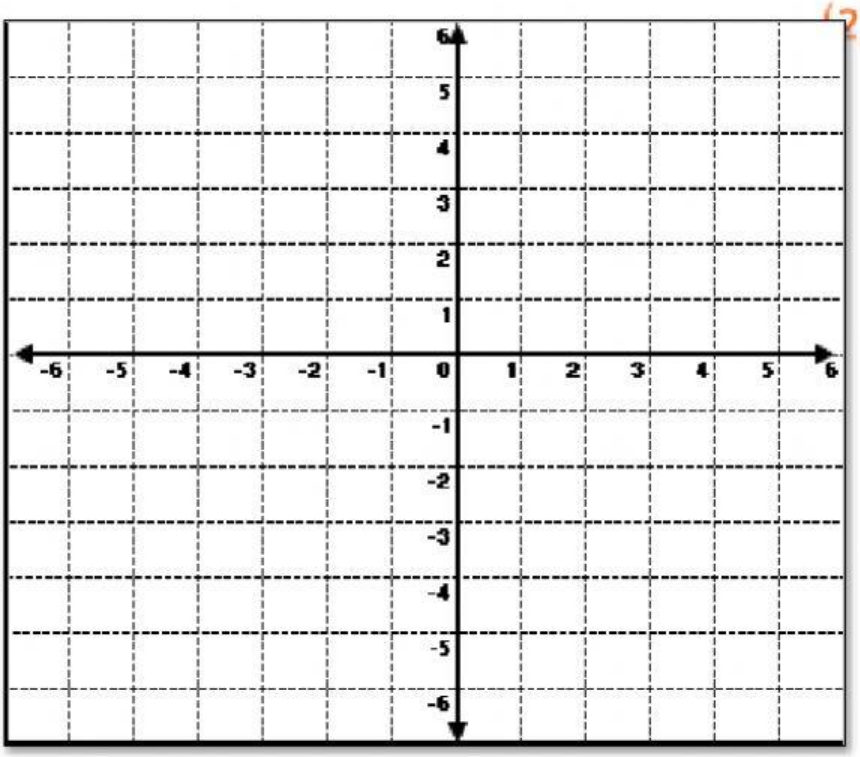

A' (,) B' (,)

C' (,)

صح (ضعها في موقعها الصحيح على الشبكة

خطأ (ضعها هنا اذا كانت خطأ)

صح (ضعها في موقعها الصحيح على الشبكة

خطأ (ضعها هنا اذا كانت خطأ)

صح (ضعها في موقعها الصحيح على الشبكة

خطأ (ضعها هنا اذا كانت خطأ)

صح (ضعها في موقعها الصحيح على الشبكة

خطأ (ضعها هنا اذا كانت خطأ)

الوحدة السادسة لتحويلات	عنوان الدرس : الانعكاس	أهداف الدرس: يمثل الانعكاس بيانياً على المستوى الإحداثي

1 $\triangle GHJ$ رؤوسه $G(4, 2)$ و $H(3, -4)$ و $J(1, 1)$

ومنعكسة عبر المحور y

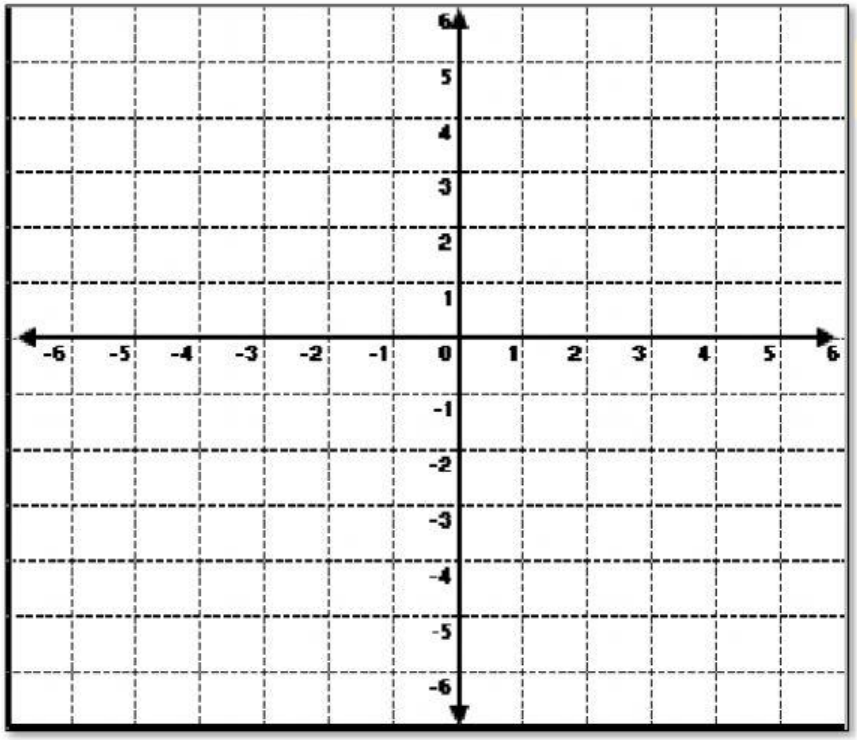

G' (,) H' (,)

J ' (,)

صح (ضعها في موقعها الصحيح على الشبكة

خطأ (ضعها هنا اذا كانت خطأ)



صح (ضعها في موقعها الصحيح على الشبكة

خطأ (ضعها هنا اذا كانت خطأ)



صح (ضعها في موقعها الصحيح على الشبكة

خطأ (ضعها هنا اذا كانت خطأ)



صح (ضعها في موقعها الصحيح على الشبكة

خطأ (ضعها هنا اذا كانت خطأ)