Matemática

Familia del 70 al 90.

1. **Completa la casita de la familia del 70, colocando los números en el orden correcto inicia en la flecha.**

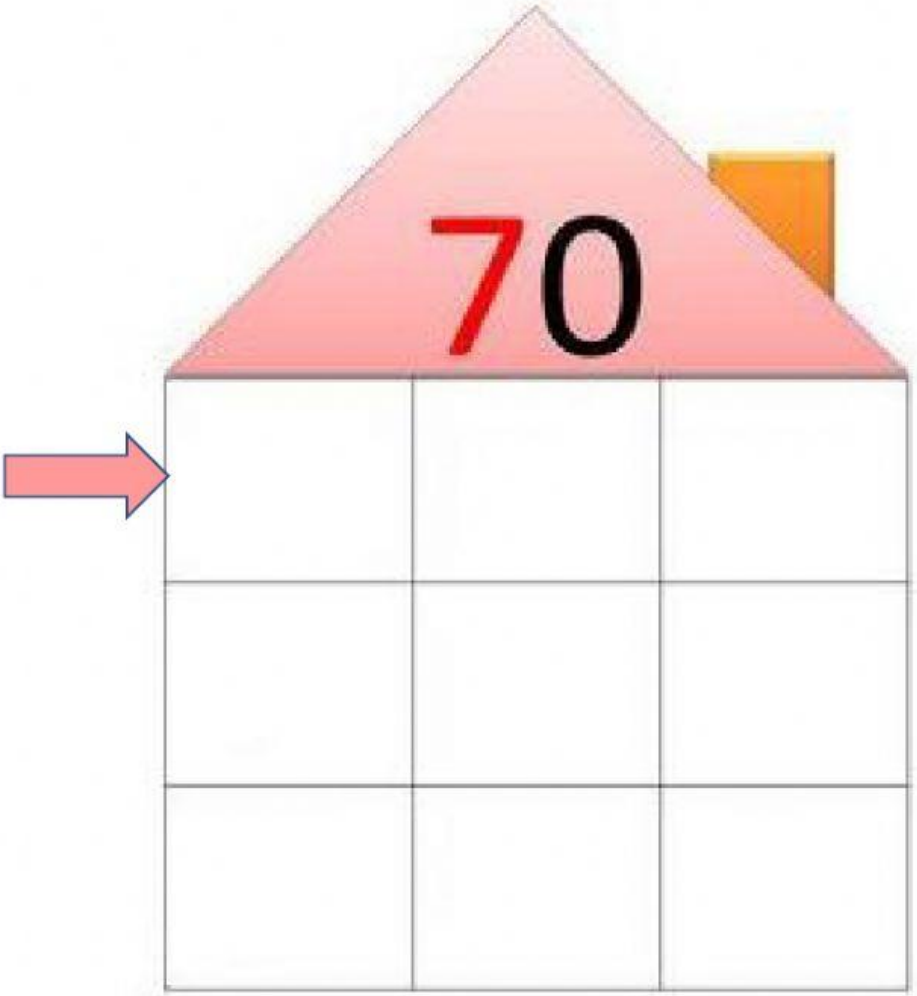

75 77 72 71

76 79 74 78 73

Matemática

Familia del 70 al 90.

2. **Completa la casita de la familia del 80, colocando los números en el orden correcto inicia en la flecha.**

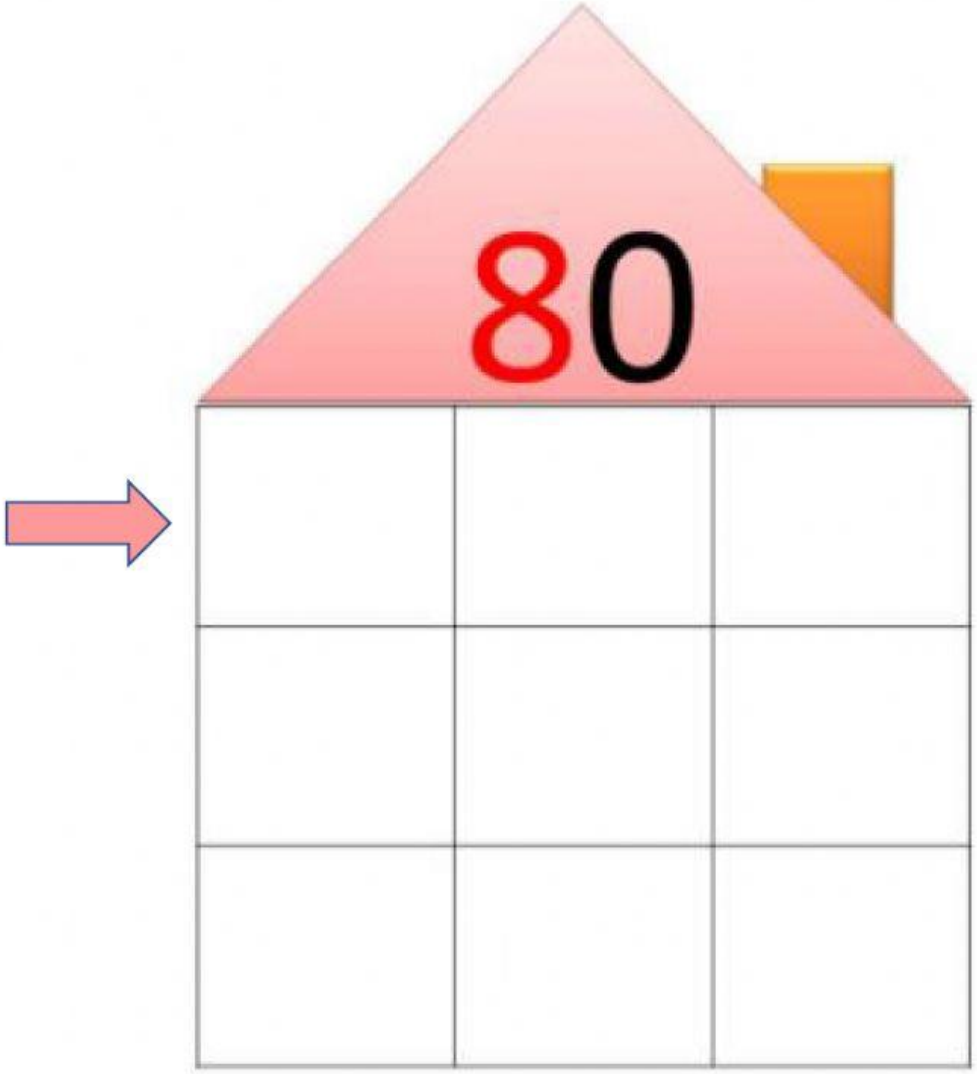

86 88 82 84

85 89 83 87 81

Matemática

Familia del 70 al 90.

3. **Completa la casita de la familia del 90, colocando los números en el orden correcto inicia en la flecha.**

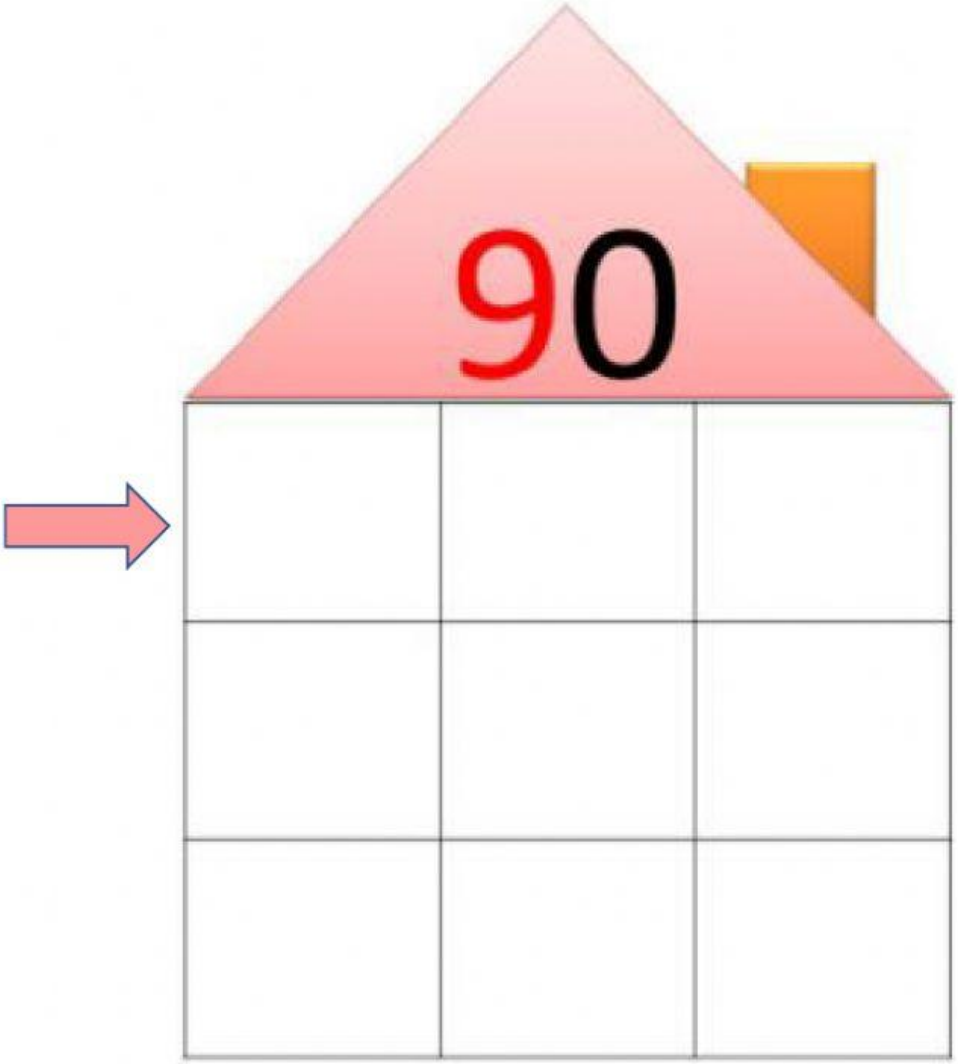

96 93 98 92

97 91 95 99 94

Matemática

Familia del 70 al 90.

4. Realizo conteo de 1 en 1. Escriba el número que completa la serie.

70

80

90

Matemática

Familia del 70 al 90.

5. Realizo conteo de 2 en 2. Escriba el número que completa la serie.

70 ◯ ◯ ◯ ◯

80 ◯ ◯ ◯ ◯

◯ ◯ ◯ ◯ ◯

Matemática

Familia del 70 al 90.

6. **Ordena cada serie numérica de forma descendente. Coloca el número donde corresponde.**

71 77 78 79 75 73

☐ - ☐ - ☐ - ☐ - ☐ - ☐

81 85 89 83 86 88

☐ - ☐ - ☐ - ☐ - ☐ - ☐

92 99 98 95 90 93

☐ - ☐ - ☐ - ☐ - ☐ - ☐

Matemática

Familia del 70 al 90.

7. Coloca el signo **>, < o =** según sea el caso.

78 _____ 89

93 _____ 93

88 _____ 67

81 _____ 71

99 _____ 99

83 _____ 92

Matemática

Familia del 70 al 90.

8. Coloca en la casita de valores

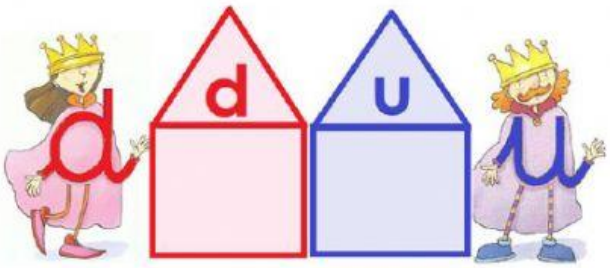

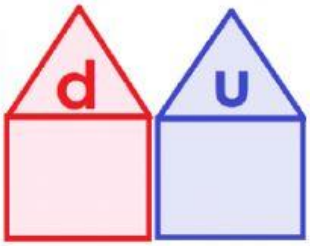

7

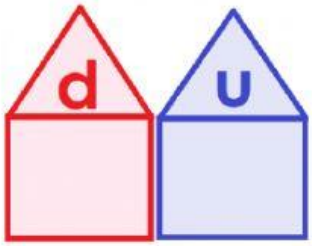

78

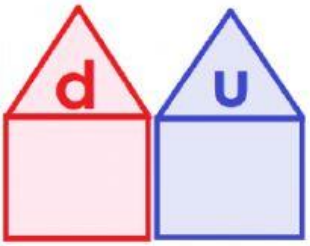

82

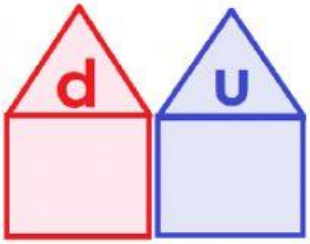

74

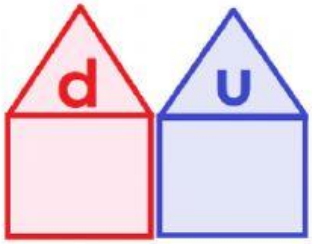

3

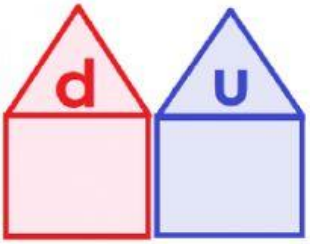

93

Matemática

Familia del 70 al 90.

9. Coloque y sume

41 + 34 =

	d	u
+		

63 + 24 =

	d	u
+		

10. Coloque y reste

96 - 53 =

	d	u
-		

87 - 63=

	d	u
-		