CENTRO EDUCACIONAL "PROFESSOR HENRIQUE BUSS" "Educar para transformar" 20 Anos	São Ludgero, _____de dezembro de 2020.	AVALIAÇÃO FINAL
	Professora:	Ano/ Turma: 2º -
	Estudante:	Nota:
	Assinatura pais/responsáveis:	

AVALIAÇÃO FINAL DE CIÊNCIAS

Assuntos: O céu; Astros luminosos e iluminados; Componentes do ambiente; Os animais; As plantas; O corpo e o ambiente.

1) Ligue cada astro ao seu nome.

SOL

LUA

TERRA

2) Assinale o astro onde nós vivemos.



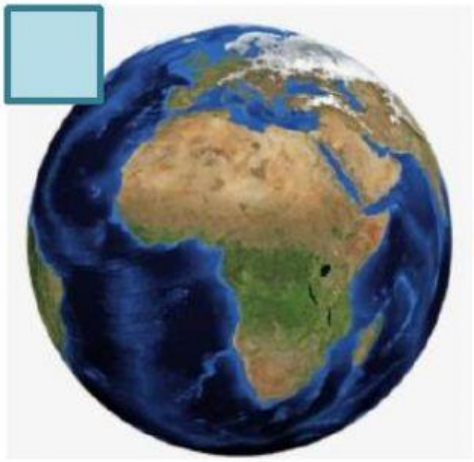



3) Assinale o Sol correto de acordo com a posição das sombras.



4) Observe a imagem a seguir e depois escreva o nome de dois seres vivos e de dois componentes não vivos.

SERES VIVOS	COMPONENTES NÃO VIVOS
1-	1-
2-	2-

5) Observe a figura e escreva o nome correto para cada parte da planta.

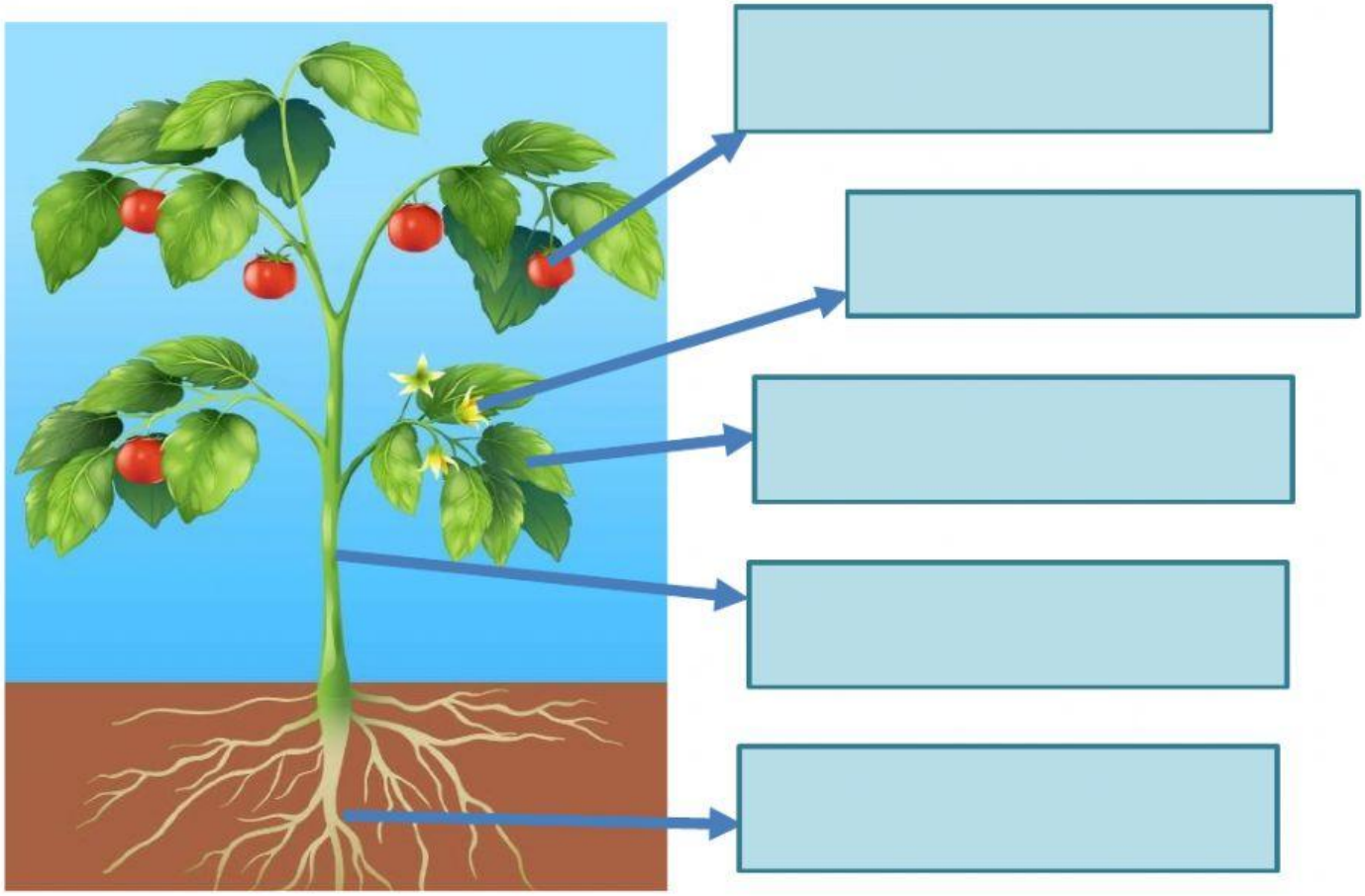

6) Ligue os animais de acordo com o ambiente em que vivem.







AMBIENTE TERRESTRE

AMBIENTE AQUÁTICO

---

7) Encontre no diagrama o nome dos 5 sentidos:

P	A	L	A	D	A	R	Ã	O
R	G	O	L	F	A	T	O	U
H	W	O	F	Y	T	H	R	I
F	V	I	S	Ã	O	H	G	Z
N	C	A	U	D	I	Ç	Ã	O
L	K	N	V	T	A	T	O	X

---

8) Arraste os animais para a coluna a adequada.

NASCEM DE OVOS	NASCEM DA BARRIGA DA MÃE

9) Observe a imagem e responda as questões a seguir.



a) Qual o nome desse animal?

R.:

d) Ele vive na...

água. terra.

c) Ele tem o corpo coberto por...

escamas. pelos.

b) Ele se locomove...

nadando. andando ou correndo.

---

10) Arraste as placas conforme o local em que cada planta vive.

Plantas aquáticas

Plantas terrestres

Plantas aquáticas

Plantas terrestres



11)Ligue a parte do corpo que as crianças usam para:

VER O SOL

LAVAR O ROSTO E SENTIR A ÁGUA

SENTIR O CHEIRO DO PERFUME

SENTIR O SABOR DOS ALIMENTOS

OUVIR A MAMÃE CONTANDO HISTÓRIA

NARIZ

ORELHA

OLHO

MÃO

LÍNGUA

- Atividades elaboradas pelas professoras dos 2º anos do Centro Educacional Professor Henrique Buss.

- Imagens retiradas da Internet.