# ТЕСТ ПО МАТЕМАТИКА

1. Как се нарича триъгълник, който има 3 равни страни:

А) равностранен Б) разностранен В) равнобедрен

2. Как се нарича триъгълник, който има 3 различни страни:

А) равностранен Б) разностранен В) равнобедрен

3. Колко прави ъгъла има правоъгълният триъгълник:

_____

4. Колко остри ъгъла има остроъгълният триъгълник:

_____

5. Колко тъпи ъгъла има тъпоъгълният триъгълник:

_____

6. Какъв е по вид ъгъл ABC=35° :

_____

7. Какъв е по вид ъгъл MHE=120° :

_____

8. Какъв е по вид ъгъл PKO=90° :

_____

LIVEWORKSHEETS

9. Свържи геометричните тела:

цилиндър | конус | пирамида | правоъгълен паралелепипед

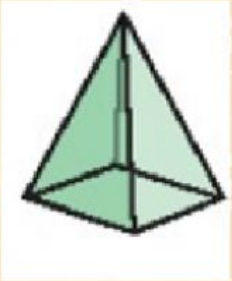
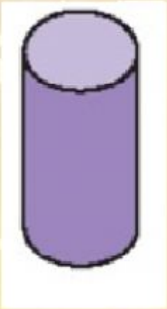

10. С кое действие намираме неизвестно събираемо:

_____

11. С кое действие намираме неизвестно умаляемо:

_____

12. С кое действие намираме неизвестен умалител:

_____

13. С кое действие намираме неизвестен множител:

_____

14. С кое действие намираме неизвестно делимо:

_____

LIVEWORKSHEETS

15. Кое е вярното твърдение:

1 км = 100 м

1 кг = 1000 г

1 м = 1000см

16. Кое е <u>невярното</u> твърдение:

1 м = 100 см

1 ч = 30 мин

1 км = 1000м

17. Как се записва с римски цифри числото 26:

XXIV XXVI XXIIIIII

18. Как се записва с римски цифри числото 19:

XXI IX XIX

19. Кое число е LII:

_____

20. Кое число е CX:

_____



LIVEWORKSHEETS