TECNOLOGÍA – ROBÓTICA
CUARTOS DE BÁSICA

2020-2021

MICROSOFT EXCEL

CELDAS, COLUMNAS Y FILAS.

1.- **Observa** la forma de las herramientas y **selecciona** el nombre correcto. **(2 Ptos)**

Reconoce la forma de las herramientas solicitadas	0.5 pto. c/u

2.- **Selecciona** el nombre correcto de cada celda. Observa el ejemplo. **(3 ptos)**

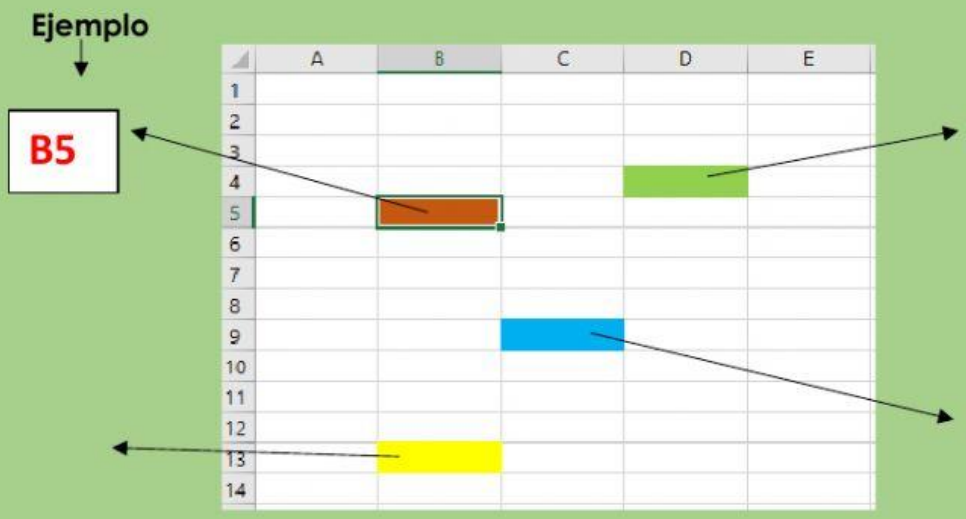

Identifica y selecciona el nombre correcto de las celdas.	1 pto. c/u

4.- **Observa** las siguientes imágenes y **selecciona** la opción correcta si pertenece a: **Columna, Fila, Celda. (2 ptos)**

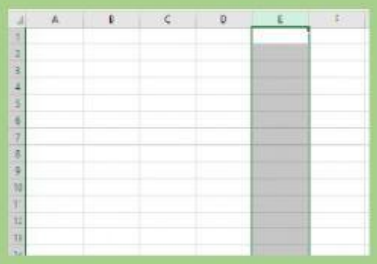

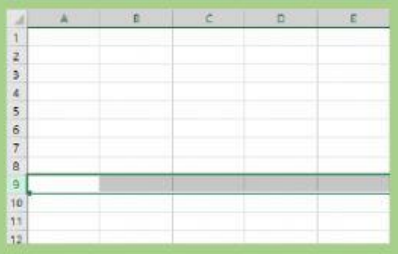



Identifica una celda, fila, columna	1 pto. c/u

5.- **Identifica** y **selecciona** el nombre de la celda donde se encuentra cada valor. **(2 ptos)**

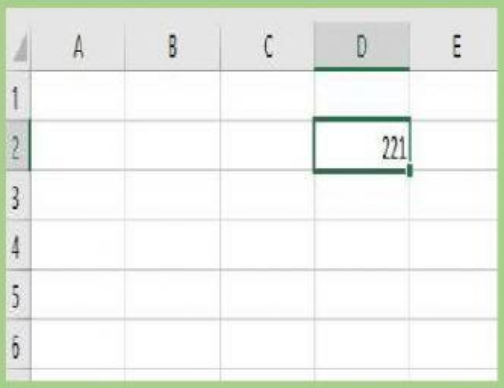

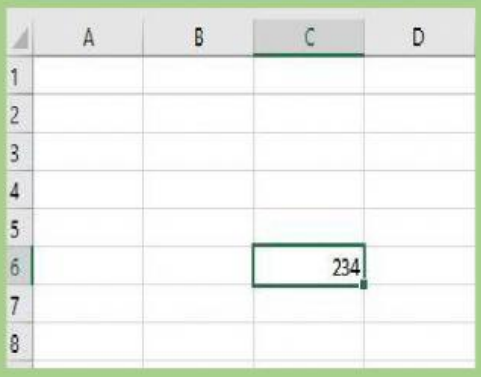

	A	B	C	D
1				
2				
3				
4				
5				
6				
7				
8	54			
9				
10				

	A	B	C	D
1	34			
2				
3				
4				
5				
6				
7				
8				

Identifica el nombre de las celdas donde se encuentra cada valor.	0.5 pto. c/u

!!LO HICISTE MUY BIEN!!