ИНТЕРАКТИВНИ НАСТАВНИ ЛИСТИЋ

1.Именуј фигуре:



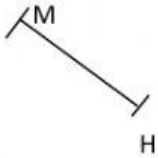

_____ _____ _____ _____

2.



Странице правоугаоника су дужи: _____ ,_____,_____,_____

Страници РС насупротна је страница _____ .

Страници ОП сусједна је страница _____ и _____ .

3.

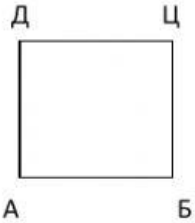

Тјемена квадрата су тачке :_____,_____,_____,_____ .

Странице квадрата су међусобно _____ .

ХВАЛА!

Учитељица Пава