**UNIDAD EDUCATIVA BENJAMÍN FRANKLIN**
**TALLER ONLINE – 2DO QUIMESTRE – 1ER PARCIAL**

**Name:** _____ **Date: 16** - 12 - 2020
**Subject:** **Matemàtica** **Teacher:** Miss Ainee Olvera G.
**Course:** Segundo de Básica **Theme: Descomposición**

1. Completa la tabla.

| Material de Base 10 | Número | Descomposición | Se escribe |
|---|---|---|---|
| | 50 | 50 + 0 | |
| | 51 | 50 + 1 | cincuenta y uno |
| | | 50 + 2 | |
| | | 50 + 3 | |
| | | 50 + 4 | cincuenta y cuatro |
| | | 50 + 5 | |
| | | 50 + 6 | |
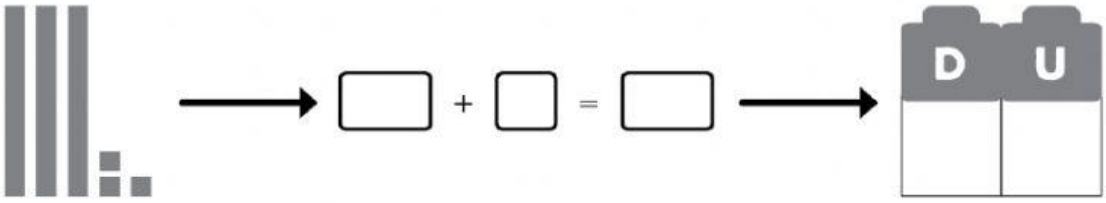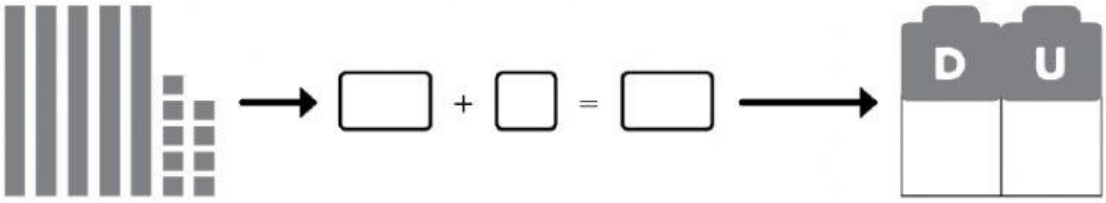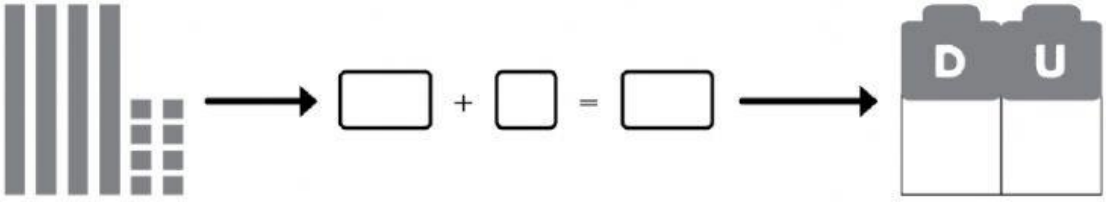
2. Observa las unidades y decenas y completa la información.