4. (3b) Koje od zadanih preslikavanja nije funkcija?

a	b	c
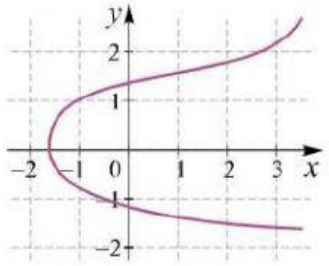		

x	0	1	2
f(x)	4	4	4

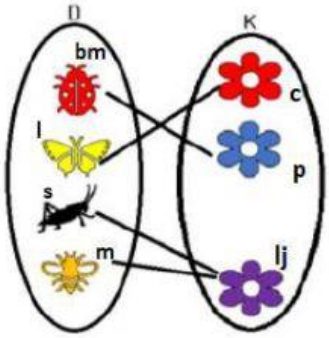

Obrazložite svoj odgovor!

5. (10b)

Za zadane funkcije odredite domenu, kodomenu i sliku, te odredite koja je bijekcija.	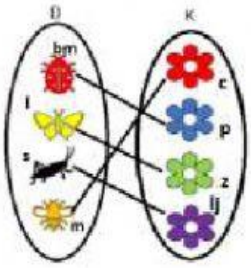		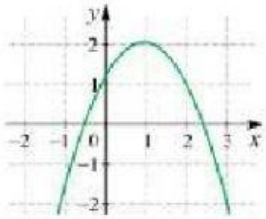
bijekcija			
domena funkcije	{ }	{ }	
kodomena funkcije	{ }	{ }	
slika funkcije	{ }	{ }	

x	0	1	2	3	4
f(x)	a	b	c	a	d

6. (5b) Na slici je graf funkcije f(x). Pročitajte na slici:

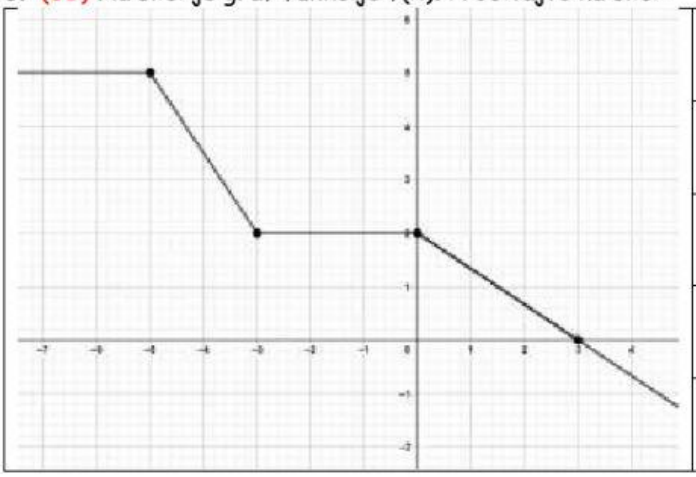

koliko je f(3) =
koliko je f(-5) =
koliko je f(2) =
Za koji x je vrijednost funkcije jednaka 2? x
Za koji x je vrijednost funkcije jednaka 0? x

Ime i prezime:_____