Afrikos gamtinė geografija



1. Įvardyk skaičiais pažymėtas tropinio miško dalis:
(krūmynai, miško skliautas, atraminės šaknys, išsišovėliai, pomiškis)

1.
2.
3.
4.
5.

2. Atrink, kurie iš teiginių tinka dygliuotajai, sausajai ir drėgnajai savanai:

Upių slėniuose auga galeriniai miškai
dygliuotoji *sausoji* *drėgnoji*

Upės vandenį plukdo ištisus metus
dygliuotoji *sausoji* *drėgnoji*

Užauga aukštesnė kaip 2 m žolės
dygliuotoji *sausoji* *drėgnoji*

Augalija nesudaro ištisinės dangos
dygliuotoji *sausoji* *drėgnoji*

3. Išnagrinėkite klimatogramas ir priskirkite:

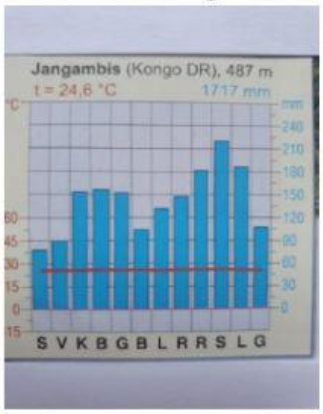

A)

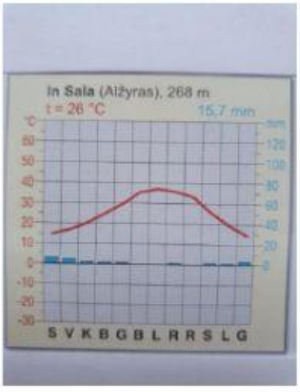

B)

Klimatograma būdinga atogrąžų klimatui

Klimatograma būdinga pusiaujo klimatui

Apskaičiuoti B klimatogramos metų absoliutinę temperatūrą (įrašyti tik skaičių)

1. Priskirti sąvoką tinkančią apibūdinimui:

A) Vadė …	procesas vykstantis dėl staigių temperatūrų svyravimų
B) Efemeras…	augalas gyvenantis ant kito augalo, bet neparazituojantis jame
C) Oazė…	įsmukęs Žemės plutos luitas, ribojamas sprūdžių
D) Mechaninis dūlėjimas…	augalas greitai auga, subrandina vaisius ir greitai nudžiūsta
E) Epifitas…	išdžiuvusi upės vaga
F) Grabenas…	izoliuota vieta su augalija, dažnai su versme ar panašiu vandens šaltiniu