CUERPOS REDONDOS

Los **cuerpos redondos** son cuerpos geométricos que se obtienen haciendo girar las figuras planas alrededor de un eje.

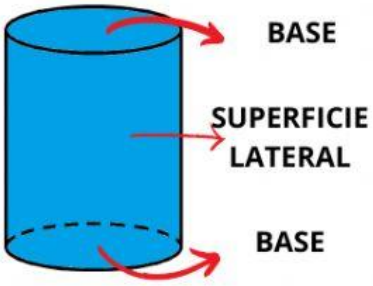

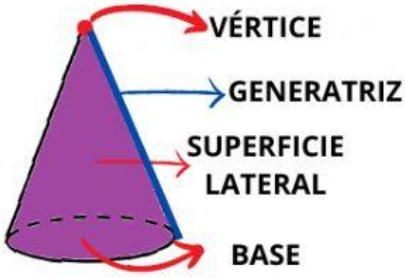

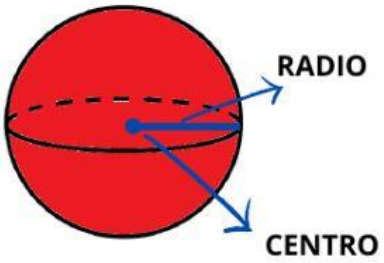

1) Clasifica los siguientes objetos según su forma.

2) Escribe qué cuerpo redondo es en cada caso.

- Cuerpo redondo que gira en cualquier dirección: _____
- Cuerpo redondo que gira en torno a su generatriz: _____
- Cuerpo redondo que gira en una dirección: _____

3) ¿Cómo se llama? Arrastra y coloca cada nombre en su lugar.

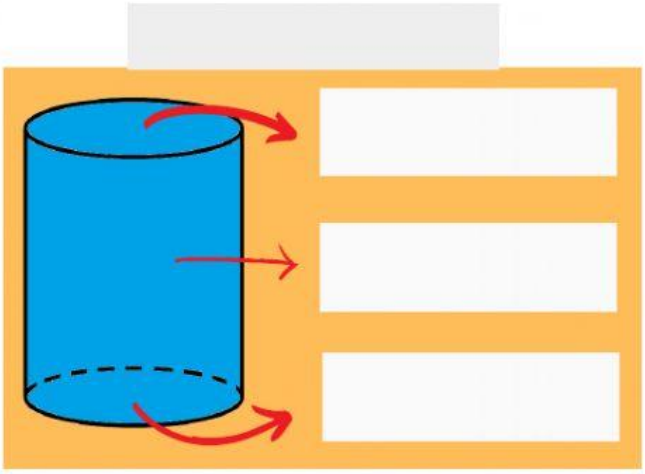

SUPERFICIE LATERAL

BASE

BASE

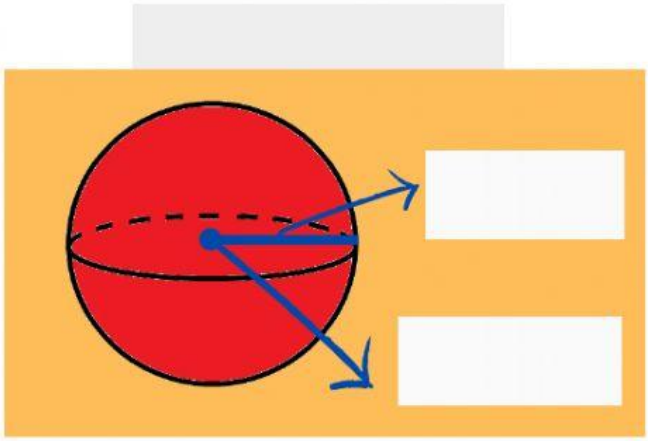

CENTRO

RADIO

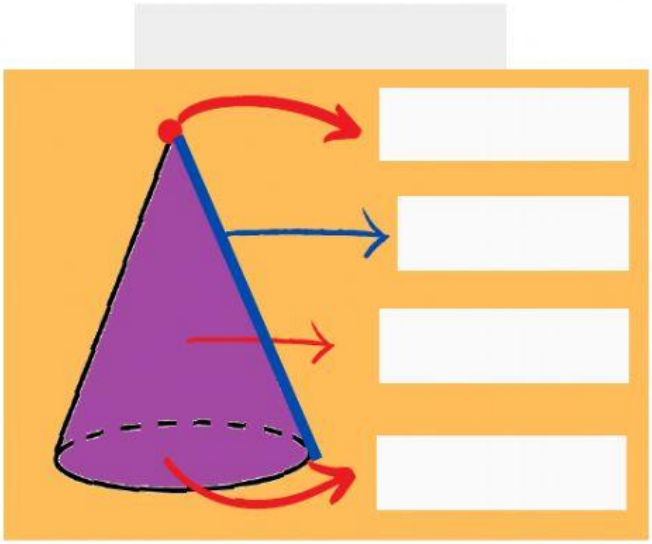

GENERATRIZ

BASE

VÉRTICE

SUPERFICIE LATERAL