EJE QUÍMICA

Depto. de Ciencias: **Curso:2° año Medio_____**

Asignatura: Ciencias Naturales **Nombre:_____ n Lista_____**

I.- Para las siguientes imágenes establezca si las soluciones se encuentran:

a) SATURADA b) SOBRESATURADA c) INSATURADA

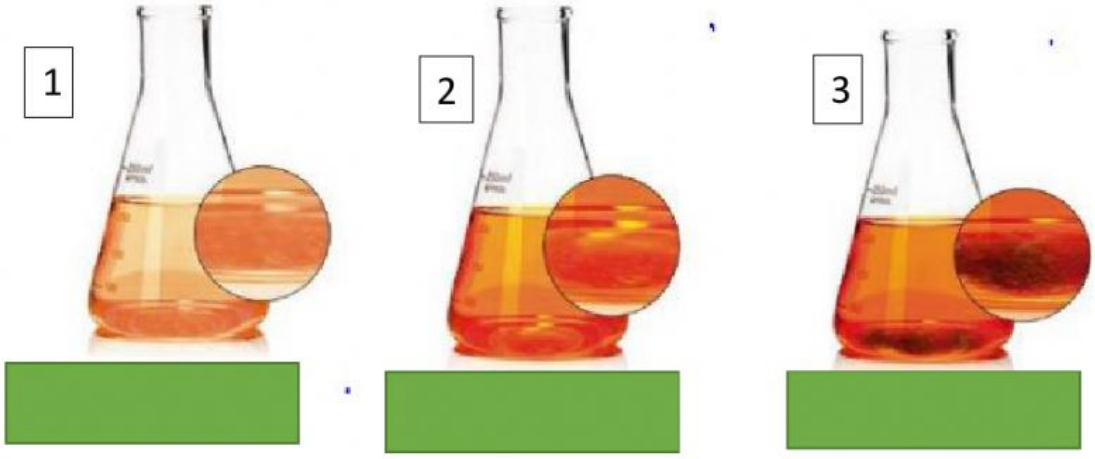

2.- ¿Cuál es la disolución saturada? Elija la alternativa correcta: a) 1

b) 2

c) 3

3. ¿Qué observaste para responder? Elija la alternativa correcta: a) Su color era más claro

b) Por la uniformidad de color

c) No había nada de soluto en el fondo

4, ¿Cuál es la disolución insaturada? Elija la alternativa correcta: a) 1

b) 2

c) 3

5.- ¿Qué observaste para responder? Elija la alternativa correcta: a) Su color era más claro

b) Por la uniformidad de color

c) No había nada de soluto en el fondo

6¿Qué tipos de soluciones son las que muestra la imagen? Marque la opción correspondiente



a) SATURADA
b) INSATURADA
c) SOBRESATURADA

a) SATURADA
b) INSATURADA
c) SOBRESATURADA

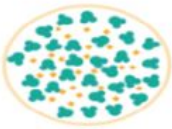

a) SATURADA
bI SOBRESATURADA
c)INSATURADA