Plano Cartesiano

Um ponto **P** no plano cartesiano é determinado por um par ordenado **P**(x, y).

1. Ligue as coordenadas correspondentes a cada ponto no plano cartesiano.

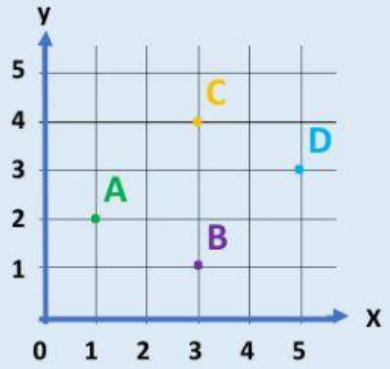

A. .(3, 4)

B. .(1, 2)

C. .(3, 1)

D. .(5, 3)

2. Observe o plano cartesiano e complete os pares ordenados abaixo.

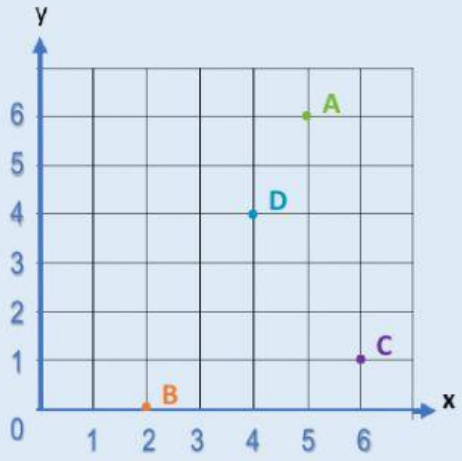

A (5,); B (, 0); C (, 1); D(4,)

3. Selecione a figura que será formada ao interligar os pontos A, B e C na questão 1.

Quadrilátero Hexágono

Pentágono Triângulo

4. Arraste o ponto correspondente a cada par de coordenadas que se apresenta na tabela abaixo:

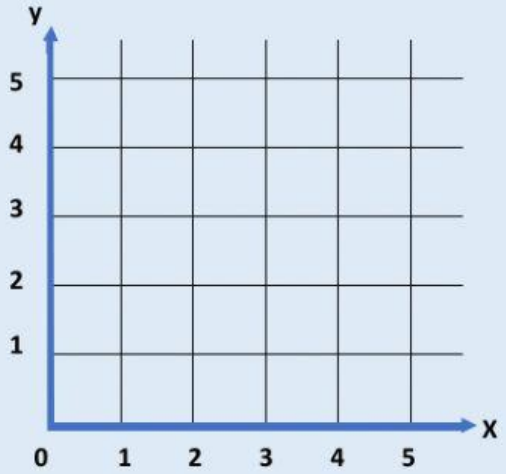

Pontos	Coordenadas
A	(2, 5)
B	(5, 2)
C	(1, 1)
D	(0, 3)
E	(3, 4)

Prof.ª Valeria Reis