# Ejercicios de planos inclinados.

Formulas $Fa * La = Fo * Lo$ $Vm = \frac{La}{Lo}$ $Fo = m * g$

De los siguientes planos inclinados obtén lo que se te pide. Nota: los datos de las distancias deben estar en metros, las fuerzas en Newton y la masa en kilogramos.

1.-

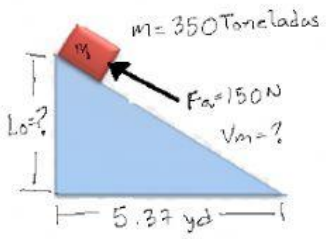


Datos:

M=

Fa=

Fo=

Vm=

La=

Lo=

2.-

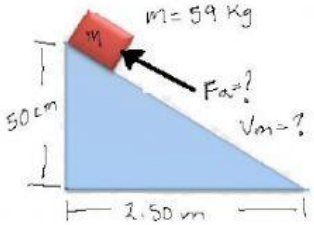


Datos:

M=

Fa=

Fo=

Vm=

La=

Lo=

3.-

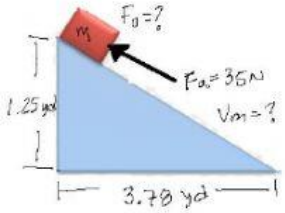


Datos:

M=

Fa=

Fo=

Vm=

La=

Lo=

4.-

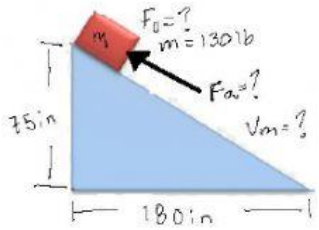


Datos:

M=

Fa=

Fo=

Vm=

La=

Lo=