ATIVIDADE ONLINE DE MATEMÁTICA

NOME:

PROF. ADRIANA LOPES

2º ANO ENSINO FUNDAMENTAL

PROBLEMINHAS

Adição / Subtração

1 – RESOLVA OS PROBLEMINHAS ABAIXO COM MUITA ATENÇÃO. LEIA MAIS DE UMA VEZ. REALIZE AS OPERAÇÕES DO LADO E NÃO DEIXE SE COLOCAR O SINAL.

NO PACOTE HAVIA 27 CHOCOLATES. GUSTAVO COMEU 13. QUANTOS CHOCOLATES SOBRARAM?

R: SOBRARAN NO PACOTE ☐ CHOCOLATES.

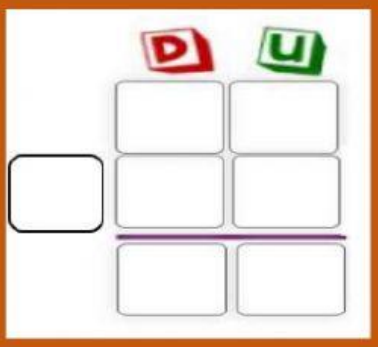

ARTHUR COLHEU 37 ABACAXIS E SOFIA COLHEU 18 LARANJAS. QUANTAS FRUTAS AS DUAS CRIANÇAS COLHERAM JUNTAS?

R: AS DUAS CRIANÇAS COLHERAM JUNTAS ☐ FRUTAS.

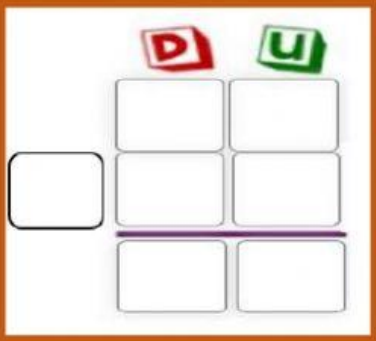

LORENA RESOLVEU 12 PROBLEMAS DO LIVRO DE ATIVIDADES E AINDA RESTAM REALIZAR 9 PROBLEMAS.

QUANTOS PROBLEMAS HÁ NO LIVRO DE ATIVIDADES?

R: HÁ NO LIVRO DE ATIVIDADES ☐ PROBLEMAS.



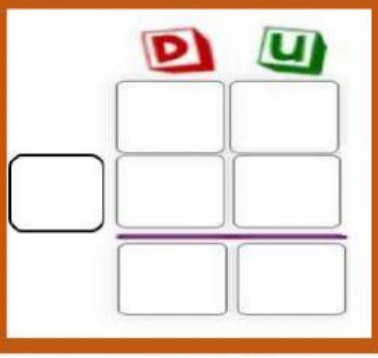

QUAL É O RESULTADO DA OPERAÇÃO QUE A PROFESSORA ADRIANA COLOCOU NO QUADRO?

R: ☐ É O RESULTADO DA OPERAÇÃO.

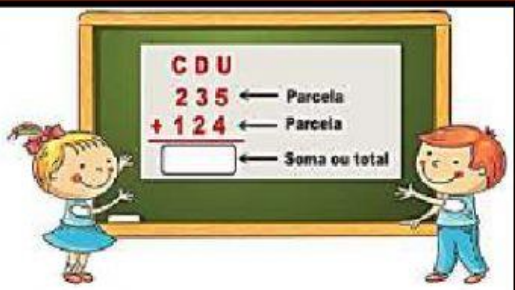

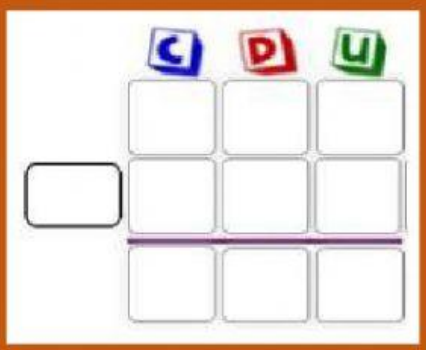

KARINA GANHOU UM LIVRO DE HISTÓRIAS COM 26

PÁGINAS ESCRITAS E 15 PÁGINAS COM ILUSTRAÇÕES.

QUANTAS PÁGINAS TEM O LIVRO QUE A KARINA GANHOU?

R: O LIVRO DA KARINA TEM ☐ PÁGINAS.

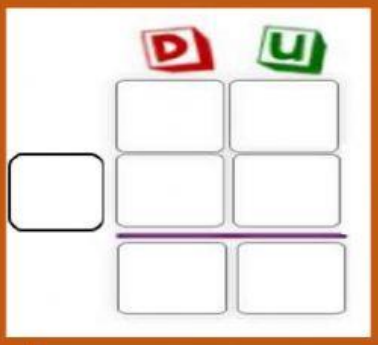

DIOGO TINHA 49 REAIS E GASTOU 28 REAIS.

COM QUANTOS REAIS FICOU?

R: DIOGO FICOU COM ☐ REAIS.

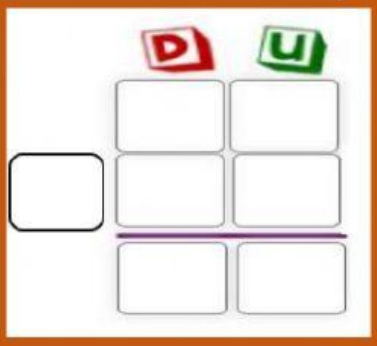

RAFAEL TEM 52 REAIS E QUER COMPRAR UM CARRINHO

DE MINIATURA POR 79 REAIS.

DE MAIS QUANTOS REAIS RAFAEL PRECISA PARA COMPRAR O CARRINHO?

R: RAFAEL PRECISA DE MAIS ☐ REAIS.

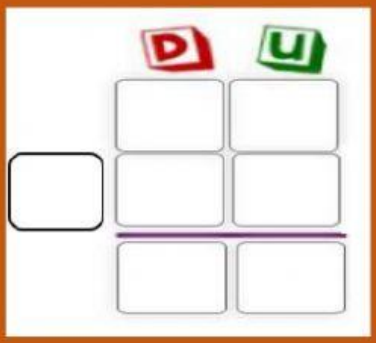

LUCAS QUER DESCOBRIR O DOBRO DE 37.

QUAL É O DOBRO DE 37?

R: O DOBRO DE 37 É ☐.

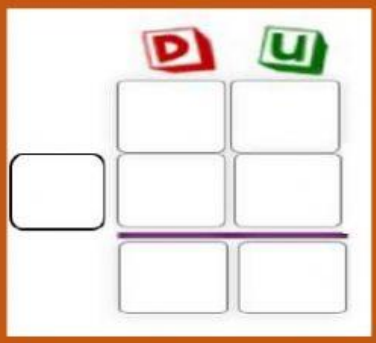

MARIA LAURA TEM 28 BOLINAS DE GUDE E JÚLIA TEM 18.

QUANTAS BOLINHAS DE GUDE MARIA LAURA

TEM A MAIS QUE JÚLIA?
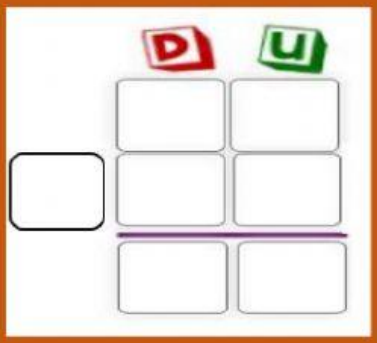
R:MARIA LAURA TEM ☐ BOLINHAS A MAIS QUE JÚLIA.