Имя ученика: _____ Класс: _____

Нарисуй недостающий домик.

СНАЧАЛА ПОДУМАЙ, КАКОЕ ОКНО ДОЛЖНО БЫТЬ НА СТЕНЕ. ВЫБЕРИ, ОКНА КАКОЙ ФОРМЫ НЕ ХВАТАЕТ В ПОСЛЕДНЕМ РЯДУ.

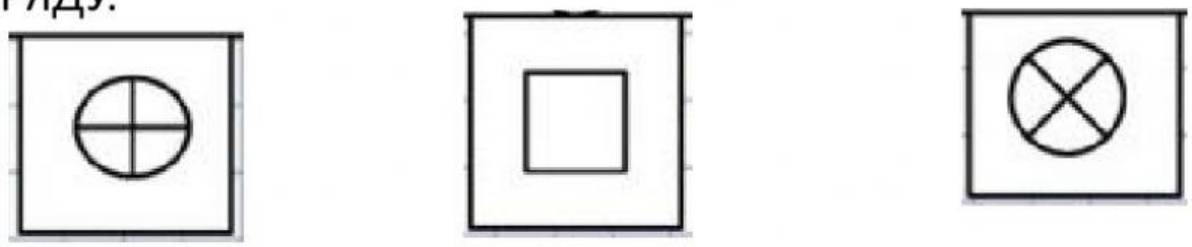

ТЕПЕРЬ ПОДУМАЙ, КАКАЯ ФОРМА ДОЛЖНА БЫТЬ У КРЫШИ. КАКОЙ ФИГУРЫ НЕ ХВАТАЕТ, ВЫБЕРИ.



ОСТАЛОСЬ ВЫБРАТЬ, КАКАЯ ФОРМА ДОЛЖНА БЫТЬ У ОКОШКА НА КРЫШЕ. НОВЫЙ ДОМИК ГОТОВ, НАРИСУЙ ЕГО В ТЕТРАДИ.