LA TIERRA Y LA ATMÓSFERA

1. **Arrastra cada parte de la Tierra a su lugar correspondiente en el dibujo**

Núcleo Atmósfera Corteza Manto Geosfera Hidrosfera

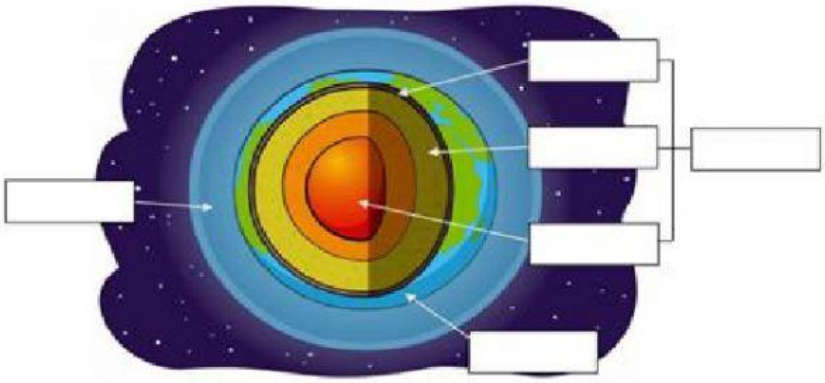

2. **Une con flechas**

Temperatura	Si hace frío o calor
Humedad	Es el movimiento del aire
Viento	Es la cantidad de vapor de agua

3. **Arrastra cada nombre de estos aparatos a su dibujo correspondiente**

Pluviómetro **Anemómetro** **Veleta** **Termómetro**

4. **Une con flechas cada definición con su nombre.**

Es el tiempo atmosférico que hace en un lugar a lo largo de 1 año	Tiempo atmosférico
Es el estado de la atmósfera e un determinado momento	Clima

5. Escoge la opción correcta

La veleta indica la ..... del viento

velocidad cantidad de agua dirección temperatura

El pluviómetro mide la .....de agua

cantidad dirección temperatura velocidad

El anemómetro mide la .....del viento

dirección temperatura cantidad velocidad

El termómetro mide la .....del aire

temperatura velocidad cantidad dirección

6. Arrastra cada estado del agua con su imagen correspondiente.

SOLIDO LÍQUIDO GASEOSO





7. Arrastra cada continente con la imagen que lo representa

América Oceanía Asia África



8. Completa el texto sobre el ciclo del agua

El calienta el agua de los ríos, lagos, mares y océanos y el agua se evapora. El de agua sube, se enfría y se condensa creando gotitas de agua que formar las

Posteriormente las nubes descargan las gotitas de agua en forma de , o . Parte del agua de la lluvia se filtra en el

y la otra parte fluye por los ríos y lagos hasta llegar de nuevo al