CALCULÁ LA MITAD Y UNÍ CON LA DIVISIÓN QUE CORRESPONDA:



LA MITAD DE 8 ES...

6 : 2 = 3

LA MITAD DE 6 ES...

10 : 2 = 5



LA MITAD DE 10 ES...

4 : 2 = 2

LA MITAD DE 4 ES...

8 : 2 = 4

LA MITAD DE 2 ES...

12 : 2 = 6



LA MITAD DE 12 ES...

2 : 2 = 1

LA SEÑO QUIERE REPARTIR ESTOS GLOBOS ENTRE 2 NIÑOS Y QUE CADA UNO TENGA LA MISMA CANTIDAD.

⇨ ¿SOBRA ALGÚN GLOBO? ELIGE LA OPCIÓN CORRECTA:

1)

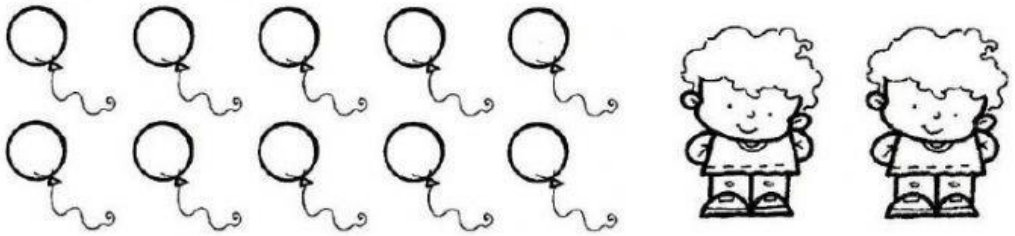

¿Te sobra algún globo? SÍ NO

2)

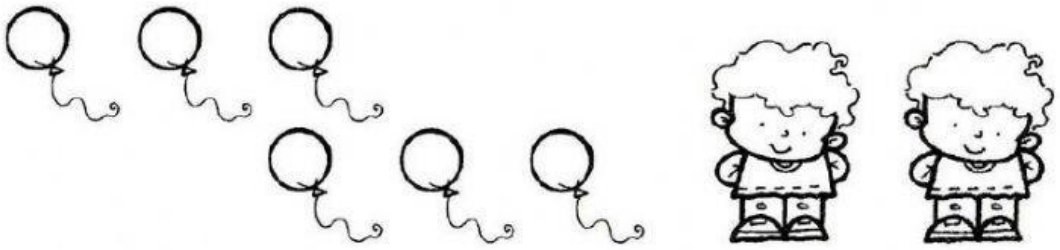

¿Te sobra algún globo? SÍ NO

3)

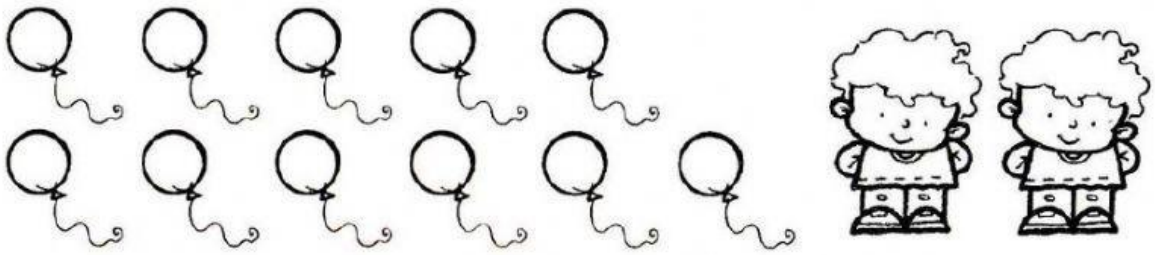

¿Te sobra algún globo? SÍ NO