EXAMEN MATES: UNIDAD 2

1. ¿Cuántos insectos hay? Cuenta y completa.

☐ + ☐ = ☐

Hay ☐ hormigas.

☐ + ☐ = ☐

Hay ☐ mariposas.

☐ + ☐ = ☐

Hay ☐ orugas.

☐ + ☐ = ☐

Hay ☐ moscas.

2. ¿Cuántas copas hay al final? Observa y completa.



☐ + ☐ = ☐

Al final hay ☐ copas.

3. Completa estas sumas

7 + 2 = ☐ 2 + 4 = ☐ 4 + 5 = ☐

$$\begin{array}{r} 1 \\ +\ 6 \\ \hline \square \end{array} \qquad \begin{array}{r} 2 \\ +\ 3 \\ \hline \square \end{array}$$

4. Cuenta y completa



Hay ☐ ♟ y ☐ ♙.

10 = ☐ + ☐

5. Lee y coloca.

Un a la derecha del .
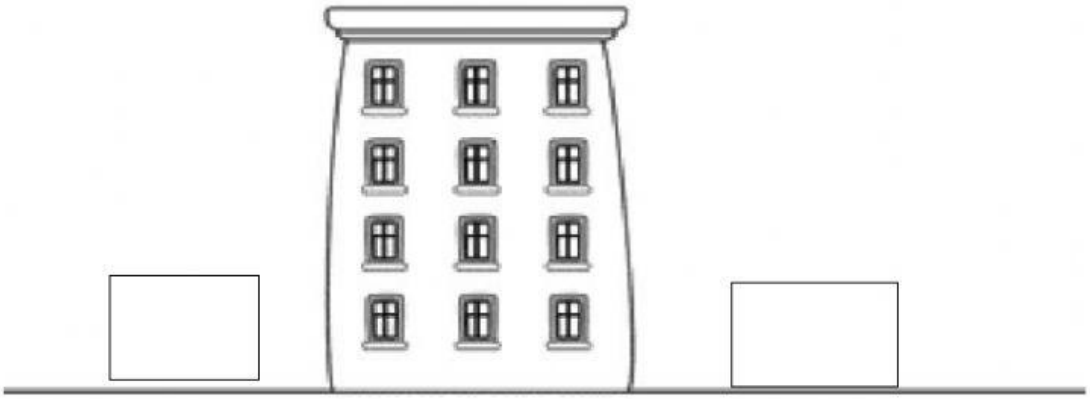
Una a la izquierda del .