**Matemáticas 2**

1. **Escriba los pares ordenados donde corresponde:**

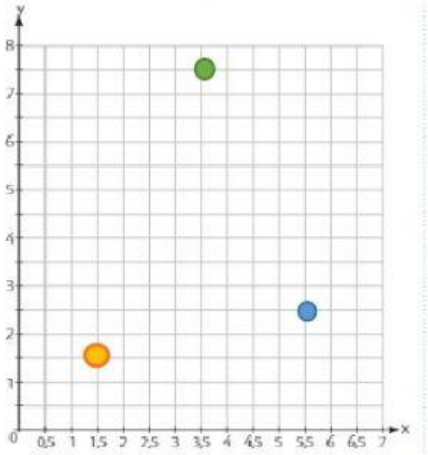




2. Resuelva las siguientes operaciones y escriba los resultados en letras.

| | | | | | | |
|---|---|---|---|---|---|---|
| | | 8 | 7 | 4, | 8 | |
| | − | 2 | 1 | 6, | 4 | 2 |
| | | | | | | |

| | | | | | | |
|---|---|---|---|---|---|---|
| | 2 | 4 | 5, | 1 | 5 | |
| + | 3 | 8 | 1, | 1 | 4 | 5 |
| | | | | | | |

3. **Resuelva mentalmente y relacione la operación con la respuesta.**

| |
|---|
| 9,4 − 7,4 = |
| 8,7 − 2,7 = |
| 5,3 + 2, 1 = |

| |
|---|
| 7,4 |
| 2 |
| 6 |

4. **Multiplique y escriba en nombre de sus términos**.

| | | | | | |
|---|---|---|---|---|---|
| | | | 9, | 7 | |
| | | × | 3 | 6 | |
| | | | | | |
| | | | | | |
| | | | | | |

5. **Resuelva hasta tener una cifra decimal y escriba los términos:**

| | | | | | | | | |
|---|---|---|---|---|---|---|---|---|
| 8 | 1, | 9 | 0 | | 3, | 5 | | |
| | | | | | | | | |
| | | | | | | | | |
| | | | | | | | | |
| | | | | | | | | |

**6. Resuelva las operaciones combinadas.**

| | | | | | | | | |
|---|---|---|---|---|---|---|---|---|
| 24 | ÷ | (8 | - | 2) | + | 14 | | |
| | | | | | | | | |
| | | | | | | | = | |

| | | | | | | | | | |
|---|---|---|---|---|---|---|---|---|---|
| 53 | - | 9 | ÷ | 3 | - | 6 | x | 8 | |
| | | | | | | | | | |
| | | | | | | | | = | |

**7. Complete los múltiplos y submúltiplos del metro cuadrado ( $m^2$)**

| Múltiplos | | | Unidad | Submúltiplos | | |
|---|---|---|---|---|---|---|
| | | | Metro cuadrado | | | |

**8. Relacione con líneas como corresponde.**

| |
|---|
| k$m^2$ |
| da$m^2$ |
| c$m^2$ |
| m$m^2$ |
| d$m^2$ |
| h$m^2$ |

| |
|---|
| Hectómetro cuadrado |
| Decímetro cuadrado |
| Milímetro cuadrado |
| Centímetro cuadrado |
| Decámetro cuadrado |
| Kilómetro cuadrado |

9. Realice las siguientes conversiones.

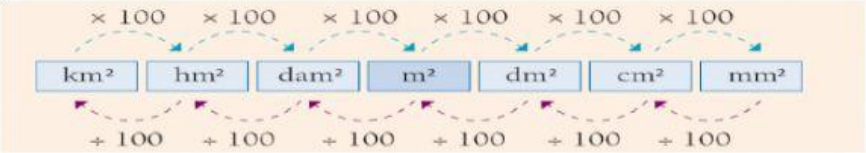


| | | | |
|---|---|---|---|
| 70 h$m^2$ | = | | $m^2$ |
| 60000 m$m^2$ | = | | d $m^2$ |