Los mapas y los símbolos convencionales

1 Identifique el nombre de cada símbolo.

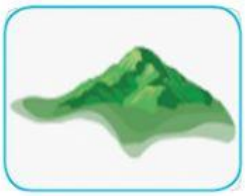



2 Seleccione la figura que representa la orientación en un mapa.

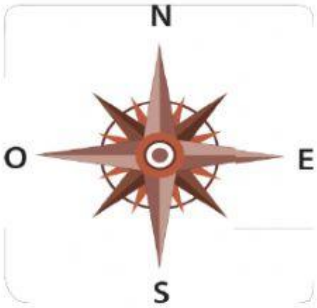

3 Marque con ✓ la imagen que corresponde al enunciado.

Es un dibujo que representa, en forma plana, la superficie de un lugar.

Puntos cardinales

4 Observe la posición de la niña. Seleccione qué elemento se encuentra en la dirección de cada punto cardinal.

- Al norte _____
- Al sur _____
- Al este _____