نشاط ختامي لدرس(المضلعات المتشابهة)

السؤال الأول

حدِّد ما إذا كان كل زوجين من أزواج المضلعات الآتية متشابهين أم لا، ووضّح إجابتك.

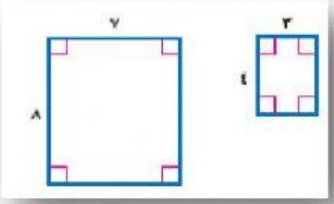

لا غير متشابهان

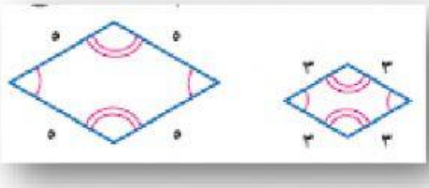

نعم متشابهان

السؤال الثاني

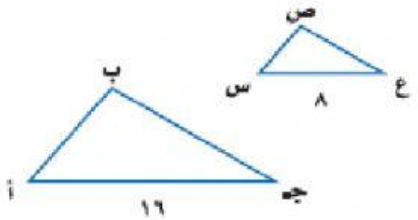

في الشكل المجاور:
△ أ ب جـ ~ △ س ص ع، ومحيط △ أ ب جـ
يساوي ٤٠ وحدةً. ما محيط △ س ص ع؟

٨ وحدات | ١٦ وحدة | ٢٠ وحدة | ٤٠ وحدة