بسم الله الرحمن الرحيم

| | |
|---|---|
| ٣ التناسب والتشابه | تحقق من فهمك |

اسم الطالب : ---------- التاريخ / /

السؤال الأول : اختر الإجابة الصحيحة لكل فقرة :-

| عدد الرسائل | ٢١٠ | ٢٦٢ |
|---|---|---|
| السنة | ١٤٣٦هـ | ١٤٣٩هـ |

١ ) يبين الجدول المجاور عدد الرسائل الواردة إلى بريد طلال الالكترون فإن معدل التغير في عدد الرسائل بين عامي ١٤٣٦هـ وَ ١٤٣٩هـ يساوي ----------في السنه تقريباً

٢ ) في الشكل المجاور المضلعان متشابهان

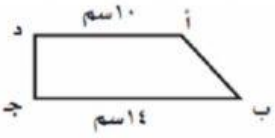


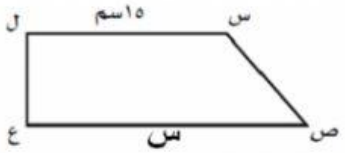


فإن طول الضلع (س)= ----------سم

٣ ) تُسمى العلاقة التي تُمثل بيانياً بخط مستقيم علاقة ----------

٤ ) من الشكل المجاور طول ارتفاع العلم




الأحمر (هـ ) يساوي----------م

٥ ) التمدد الذي يتراوح عامل مقياسه اكبر من واحد يؤدي إلى----------

٦ ) تُسمى المضلعات التي لها الشكل نفسه مضلعات----------

٧ ) في الشكل المجاور الرباعي أ ب جـ د صورته باستعمال تمدد مركزه ( أ ) وعامل مقياسه ٢

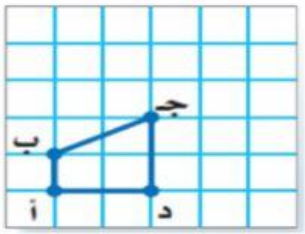


(أ)

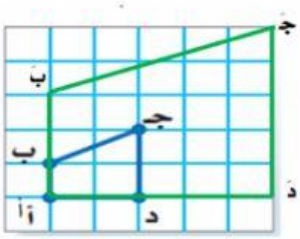

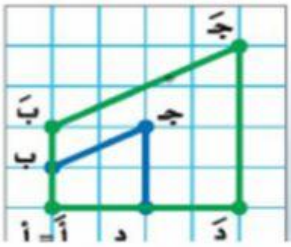
(ب)