Programa Formativo de Cualificación Básica

REPASO TEMA 2

CIENCIAS NATURALES

1º Completa las frases con las siguientes palabras:

Tierra	Sol	rotación	traslación

El movimiento que realiza la _____ alrededor del _____

se llama _____ .

2º Coloca el nombre de cada movimiento debajo de su dibujo:

ROTACIÓN

TRASLACIÓN

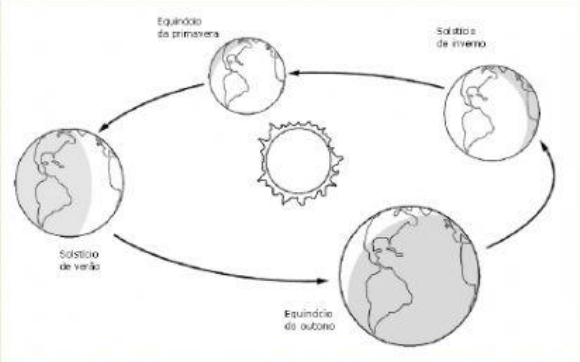

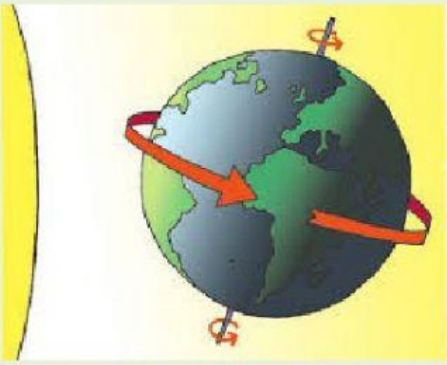

3º Completa las siguientes frases:

La Tierra tarda _____ en dar una vuelta sobre sí misma, provocando el día y la noche.

La Tierra tarda _____ en dar una vuelta completa alrededor del Sol, provocando las estaciones del año.

4º Une con flechas el inicio de cada estación:

21 de marzo	Invierno
21 de diciembre	Otoño
21 de junio	Primavera
23 de septiembre	Verano

5º Completa con las siguientes palabras:

SUR | ESTE | NORTE | OESTE



6º Une con flechas:

CUARTO MENGUANTE

LUNA NUEVA

LUNA LLENA

CUARTO CRECIENTE