Guía Evaluada de Matemáticas: Perímetros

Nombre:

Instrucciones: Lee atentamente las preguntas y selecciona la respuesta correcta.

1. El perímetro es:
   A) La suma del contorno de todos los lados
   B) La resta del contorno de todos los lados
   C) La multiplicación del contorno de todos los lados

2. El perímetro de esta figura es:

   A) 3m
   B) 4m
   C) 12m
   D) 6m

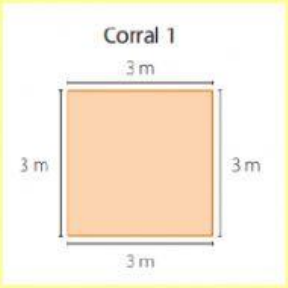

3. El perímetro de esta figura es:

   A) 3m
   B) 5m
   C) 10m
   D) 15m

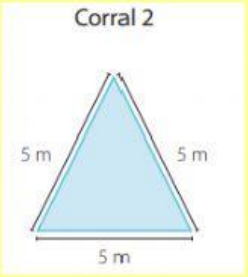

4. ¿Cuál es el perímetro de esta figura?

   A) 6m
   B) 34m
   C) 29m

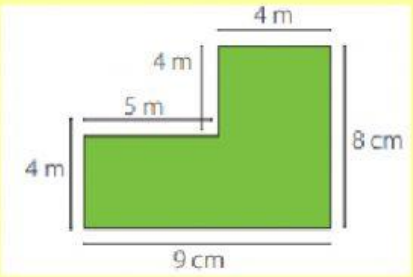

5. Si esta casa tiene una forma RECTANGULAR, ¿Cuál es su perímetro final?

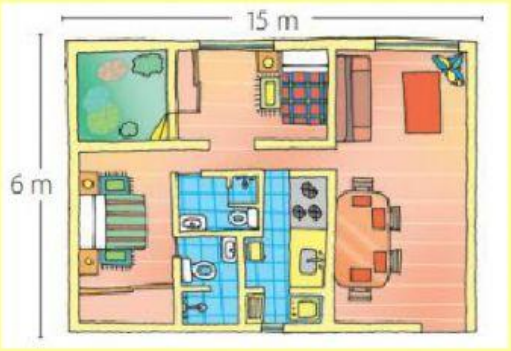

A) 21m
B) 42m
C) 30m
D) 12m

6. Si el lado de un cuadrado mide 4 cm, ¿Cuánto medirá todo su perímetro?
   A) 4cm
   B) 8cm
   C) 12cm
   D) 16cm

7. ¿Cuál de estos perímetros mide más?

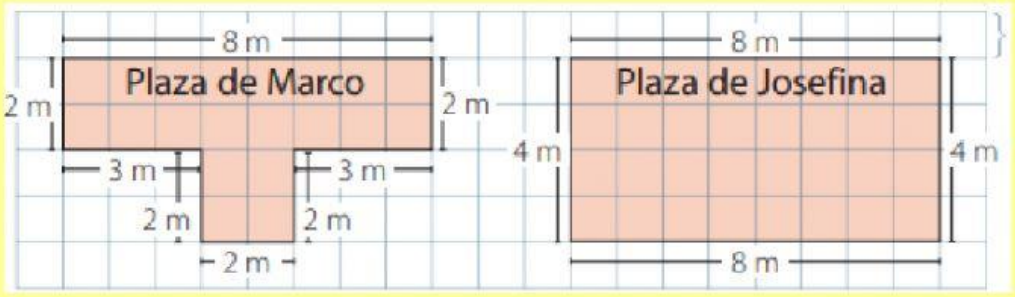

A) La plaza de Marco
B) La plaza de Josefina
C) Ambos miden lo mismo
D) No se puede calcular