MATEMÁTICA - 2° GRADO DE PRIMARIA

Medidas de Tiempo

SEGUNDO DE PRIMARIA

1. Escribe la hora que marca el reloj.



_____ en punto



_____ en punto



_____ en punto

2. Observa cada reloj y elige la opción que marque la hora.

Problemas sobre tiempo

Observa y completa antes de resolver los problemas. ¡Sigue adelante!

1h	=	60 min.	1h 30 min	=	_____ min.
1h 10 min	=	_____ min.	1h 40 min	=	_____ min.
1h 15 min	=	_____ min.	2h 05 min.	=	_____ min.

1. Ana viaja de Lima a Pisco, parte a las 8h 10 min a.m. Si el viaje dura 3h 45 minutos, ¿a qué hora llega?



Rpta.= _____

2. Empiezas un trabajo a las 10h 30 min a.m., ¿a qué hora terminas si has empleado 1h y 15 minutos en realizarlo?



Rpta.= _____

Leo la hora que marca el reloj

1. Miro los relojes y completo

Horas: 12

Minutos: 25

12:25

Leo: _____

Horas: ___

Minutos: __

:

Leo: Siete y cuarenta y cinco

Horas: ___

Minutos: __

:

Leo: _____

Horas: ___

Minutos: __

:

Leo: _____

Horas: ___

Minutos: __

:

Leo: _____

Horas: ___

Minutos: __

:

Leo: _____

2. Completa:

Un cuarto de hora tiene 15 minutos.
Media hora tiene ___ minutos.
Tres cuartos de hora tienen ___ minutos.

Son las _____

---

1 hora y media tiene ___ minutos.
2 horas tienen ___ minutos.
3 horas tienen ___ minutos.

Son las _____

Miss María Del Carmen Ramos G.