UNIDAD EDUCATIVA "Margarita Amestoy de Sánchez"
3º AÑO DE EDUCACIÓN GENERAL BÁSICA A-B-C-D
MATEMÁTICA - Lección

Escribe si estos conjuntos están determinados por comprensión o extensión.

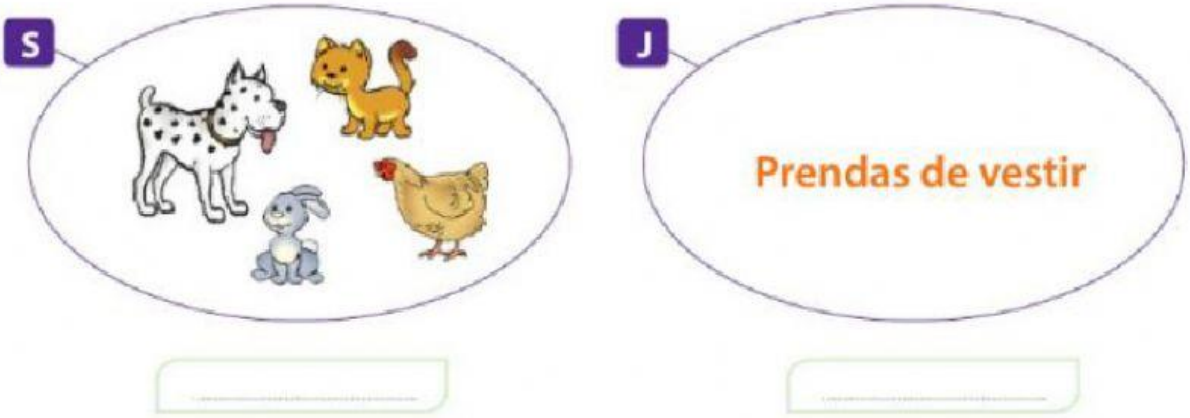

A = {Países de América del Sur} .....

B = {caramelos, chocolates, chupetes, chicles} .....

Escribe el par ordenado en el que se ubican los triángulos.

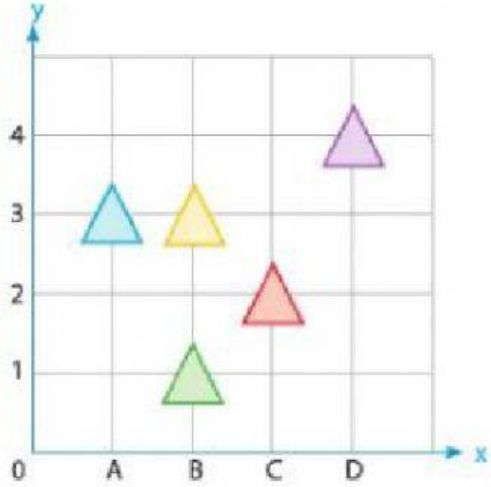

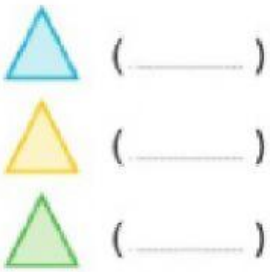

Aplica el operador en cada caso.

a) – 34

455	
339	305
966	
284	250
173	
658	624

b) + 12

134	146
357	
276	288
812	
648	660
783	

Resuelve las siguientes operaciones y realiza la comprobación.

	C	D	U
	6	2	0
–	4	6	7

COMPROBACIÓN:

C	D	U

	C	D	U
	5	5	8
+	2	9	7

COMPROBACIÓN:

C	D	U