Πάτησε εδώ → **(ΑΝΑΠΝΕΥΣΤΙΚΟ- ΚΥΚΛΟΦΟΡΙΚΟ ΣΥΣΤΗΜΑ)**

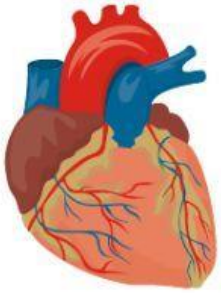

Όνομα: ……. Τάξη: ***ΣΤ***

Ημερομηνία: **28/11/2020**

ΕΡΩΤΗΣΕΙΣ

Δες εδώ:

1. Σημείωσε ΣΩΣΤΟ τις σωστές προτάσεις και με ΛΑΘΟΣ τις λανθασμένες:

α. Τα ψάρια αναπνέουν με πνεύμονες ☐

β. Κατά την εκπνοή εξέρχεται διοξείδιο του άνθρακος ☐

γ. Οι κυψελίδες βρίσκονται στη τραχεία ☐

δ. Η καρδιά χτυπά πιο γρήγορα στα παιδιά απ' ότι στους ενήλικες ☐

ε. Τα λευκά αιμοσφαίρια μεταφέρουν οξυγόνο ☐

Δες και εδώ

2. Αντιστοιχίζω:

Στήλη 1			*Στήλη 2*
1. Μικρή κυκλοφορία	☐	☐	*Α. Συνδέουν κόλπους με κοιλίες*
2. Μεγάλη κυκλοφορία	☐	☐	*Β. Η διαδρομή του αίματος από την καρδιά στους πνεύμονες και αντίστροφα*
3. Βαλβίδες	☐	☐	*Γ. Η διαδρομή του αίματος από την καρδιά στα άλλα όργανα του σώματος και αντίστροφα*
4. Αρτηρίες	☐	☐	*Δ. Μεταφέρουν αίμα από τα όργανα στην καρδιά*
5. Φλέβες	☐	☐	*Ε. Μεταφέρουν αίμα από την καρδιά στα όργανα*

3. Να επιλέξεις τη σωστή απάντηση:

α) Ποιο είναι τα βασικά όργανα του αναπνευστικού συστήματος του ανθρώπου:

1. βράγχια **2. πνεύμονες** **3.επιδερμίδα**

β) Στα όργανα του αναπνευστικού συστήματος ανήκει:

1. ο λάρυγγας **2. η καρδιά** **3. το στομάχι**

γ) Τα άκρα του βρογχικού δένδρου λέγονται:

1. τραχείες **2. κυψελίδες** **3. βρόγχοι**

δ) Ποιο υγιεινό είναι να αναπνέουμε από:

1. την μύτη **2. το στόμα** **3. την μύτη και το στόμα**

ε) Στην καλή λειτουργία του κυκλοφορικού συστήματος συμβάλει:

1. το κάπνισμα **2. το άγχος** **3. η σωματική άσκηση**

4.Τοποθετήστε τα όργανα του αναπνευστικού συστήματος:

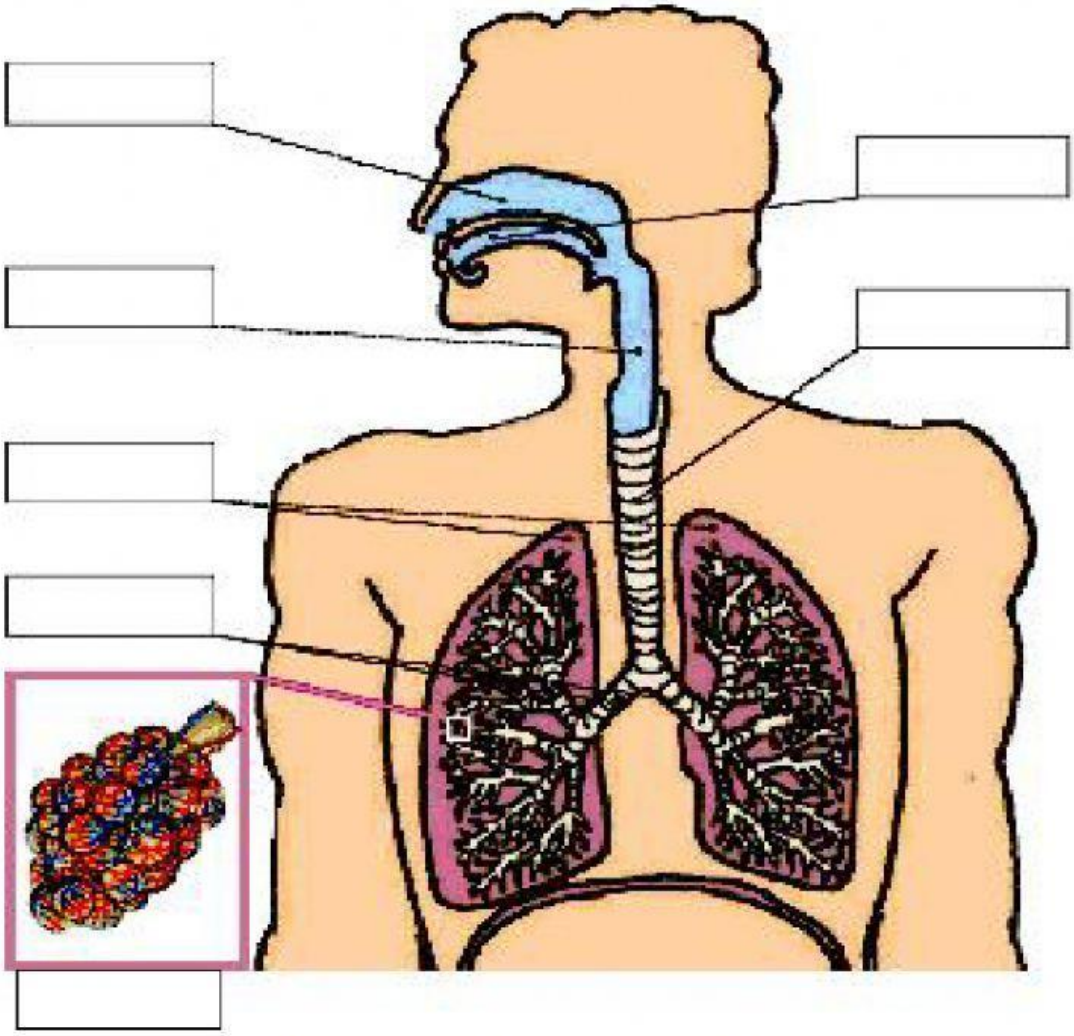

κυψελίδες | στοματική Κοιλ. | ρινική κοιλ. | τραχεία

λάρυγγας | πνεύμονες | βρόγχοι

βαλβίδα

5. Τοποθετήστε στην κατάλληλη θέση τα ακόλουθα μέρη της καρδιάς:

αριστερός κόλπος | **δεξιός κόλπος** | **αριστερή κοιλία** | **δεξιά κοιλία**

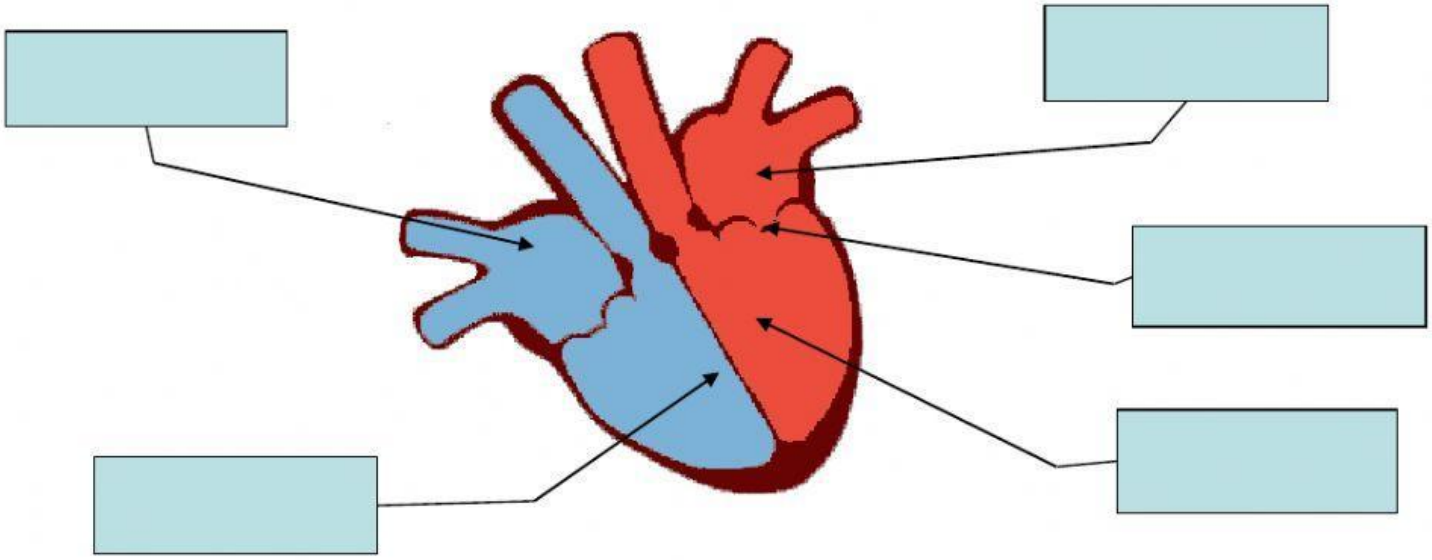

Καλό διάβασμα!