sekolah tumbuh
jogja educational spirit

**Evaluasi Akhir Semester**
**Semester I Tahun Pelajaran 2020 – 2021**
**Kelas** : 
**Mata Pelajaran** : **Matematika**
**Waktu** : **60 menit**

**Nama** : _____

**Tanggal** : _____

| Nilai | Tanda tangan Edukator |
|---|---|
| | |

**Kerjakan soal berikut!**

1. Perhatikan gambar berikut!

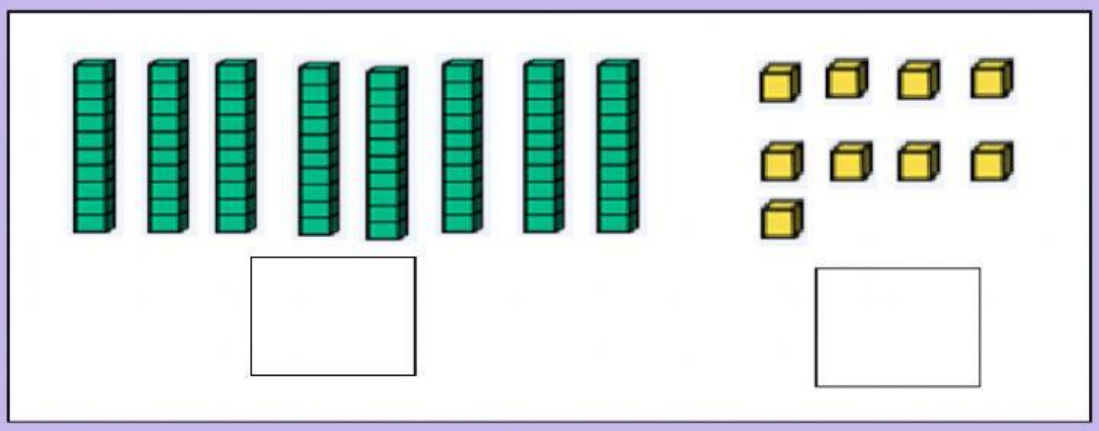

Banyaknya kubus ada

Bilangan tersebut dibaca

2. Ayo selesaikan soal-soal berikut!

48 = puluhan + satuan

91 = puluhan + satuan

3. Tentukan nilai tempat dari bilangan di bawah ini!

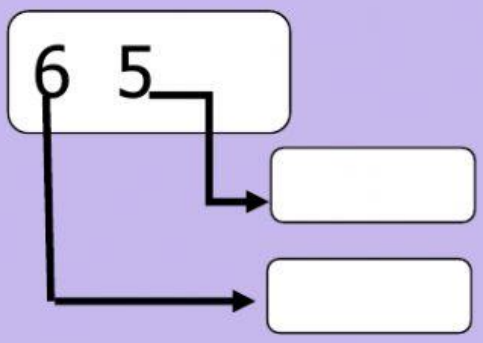


4. Lengkapi tabel dibawah ini!

| Lambang Bilangan | Nilai tempat | |
|---|---|---|
| | Puluhan | Satuan |
| 73 | ... | 3 |
| ... | 0 | 2 |

5. Nilai angka 2 pada bilangan 29 adalah

6. Nilai angka 4 pada bilangan 84 adalah

7. Angka sebuah bilangan terdiri tiga angka

   Angka 0 menempati tempat satuan

   Angka 7 menempati tempat puluhan

   Bilangan itu adalah

8. Konsep penjumlahan adalah jumlah barang menjadi lebih

9. Konsep pengurangan adalah jumlah barang menjadih lebih

10. Kerjakan operasi penjumlahan berikut dengan **cara panjang**!

64 + 21 = ...

= +

= +

+

= +

=

11. Kerjakan operasi penjumlahan berikut dengan **cara pendek**!

| | | |
|---|---|---|
| | 6 | 1 |
| | 3 | 5 |
| | | |

+

| | | |
|---|---|---|
| | 8 | 2 |
| | 4 | 9 |
| | | |

+

12. Kerjakan operasi pengurangan berikut dengan **cara panjang**!

89 - 53 = ...

[ ] = [ ] + [ ]

[ ] = [ ] + [ ]

-

= [ ] + [ ]

= [ ]

13. Kerjakan operasi pengurangan berikut dengan **cara pendek**!

| | | |
|---|---|---|
| | 8 | 3 |
| | 2 | 1 |
| | | |

-

| | | |
|---|---|---|
| | 9 | 4 |
| | 4 | 7 |
| | | |

-

14. Diwang membeli 46 kelereng.

Nicho membeli 97 kelereng.

Berapa jumlah kelereng Diwang dan Nicho?

| | | | |
|---|---|---|---|
| | | | |
| | | | |
| | | | |

-

Jawaban

15. Isis mempunyai 87 manik-manik.

Diberikan kepada Aya sebanyak 19 manik-manik.

Berapa manik-manik yang dimiliki Isis sekarang?

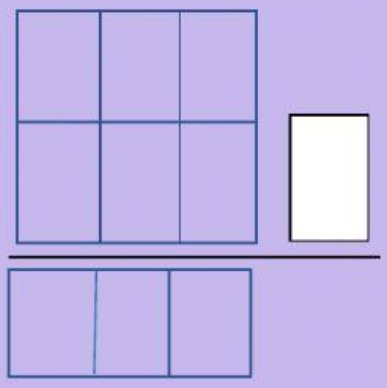

Jawaban