Relaciona la figura can el perímetro que le corresponde.



P — 56 cm

P — 76 cm

P = 156 cm

Selecciona el perímetro que le corresponde a la figura.

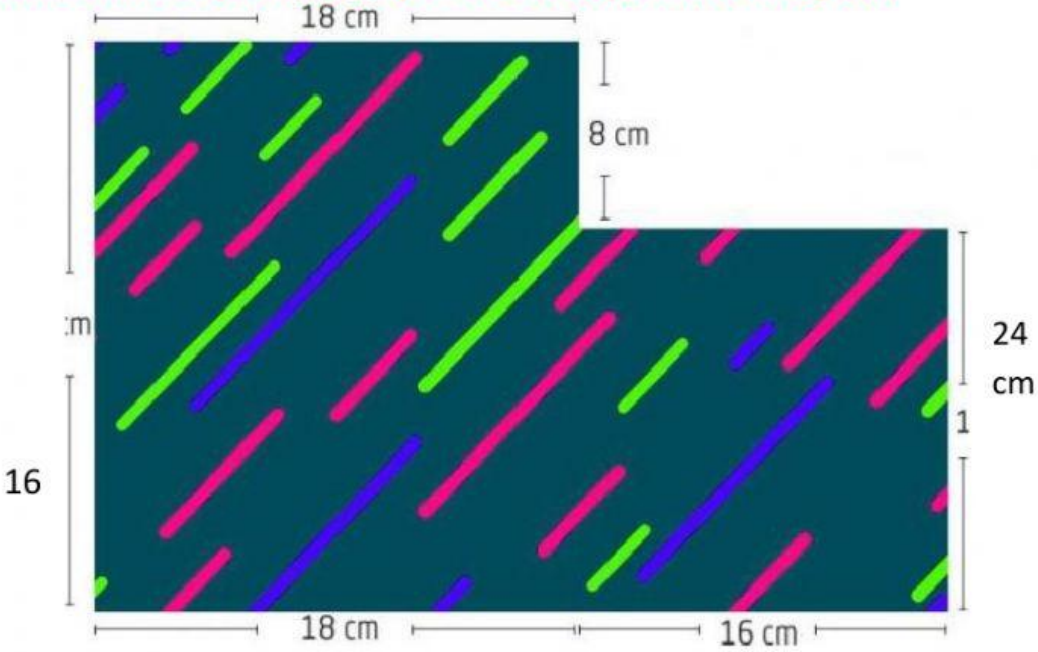

a) 96 cm b) 100 cm c) 116 cm

Selecciona el perímetro que le corresponde a la figura.

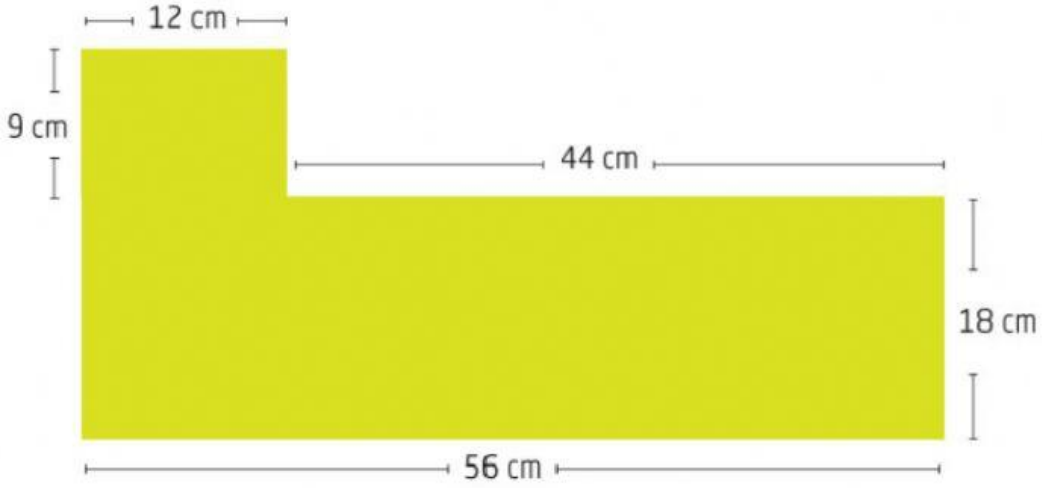

- ◯ 166 cm
- ◯ 157 cm
- ◯ 139 cm

Indica V (verdadero) o F (falso) según corresponda.

El lado *a* de la señal mide 20 cm.	◯ V	◯ F
El lado *b* de la señal mide 20 cm.	◯ V	◯ F
El lado *b* de la señal mide 15 cm.	◯ V	◯ F
El perímetro de la señal es de 75 cm.	◯ V	◯ F

Selecciona la respuesta del problema.

El señor Londoño quiere cercar el terreno que se muestra, con una malla de alambre. ¿Cuántos metros de malla necesita?

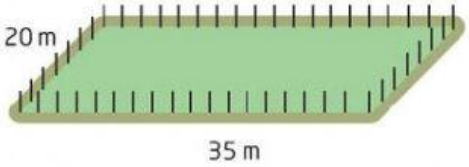

- ◯ Necesita 70 metros de alambre.
- ◯ Necesita 110 metros de alambre.
- ◯ Necesita 440 metros de alambre.

Selecciona la respuesta al problema.

- Se quiere enmarcar un paisaje con un marco de madera. ¿Cuántos centímetros debe medir el listón de madera que se utilizará para el marco?

- ◯ El listón debe medir 260 cm.
- ◯ El listón debe medir 360 cm.
- ◯ El listón debe medir 180 cm.