Число 7

1. Скільки зображено овочів. Упиши потрібні числа.



2. Скільки квітів в кожній вазі? Упиши потрібні числа.

3. Упиши пропущені числа.

1 2 ☐ 4 5 ☐ 7 7 6 ☐ ☐ 3 2 ☐

4. Поєднай кількість предметів з відповідним числом.

			
3	7	6	4