Більше. Менше. Порівну

1. Порівняй. Упиши потрібні знаки.

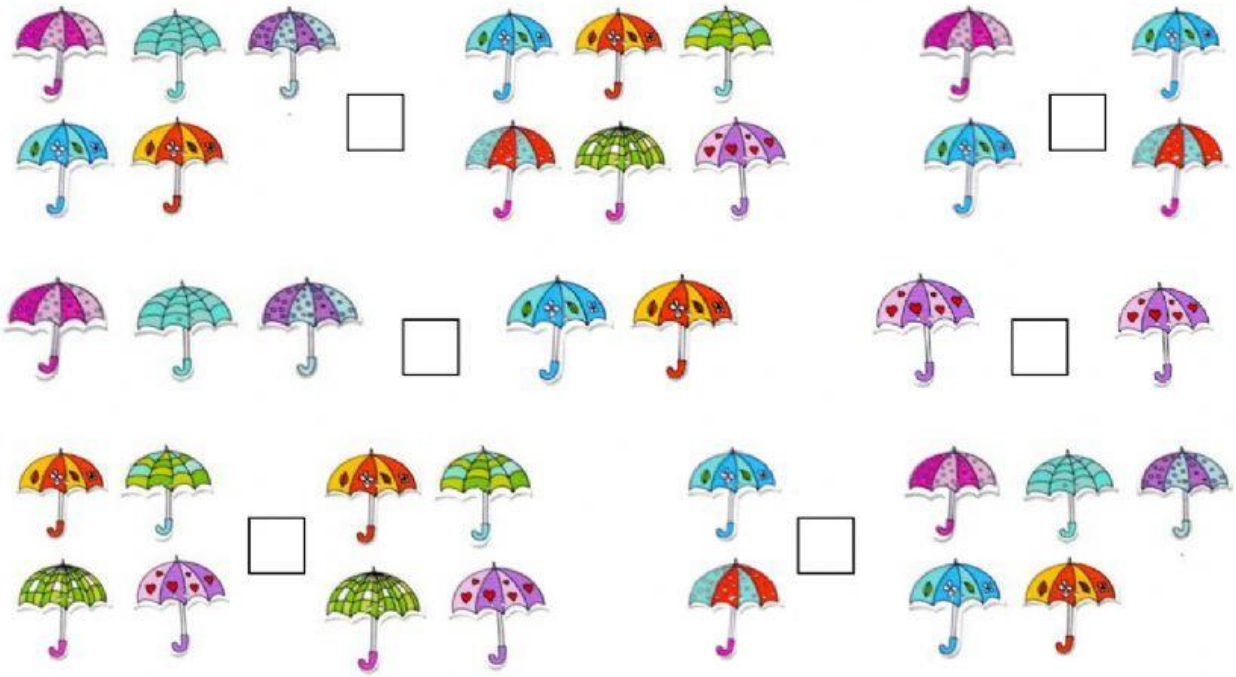

2. Упиши пропущені числа.

1 □ □ □ 5 □ 7 □ 6 □ □ 3 □ 1

3. Розділи порівну. Упиши потрібні числа.



□ = □

4. Порахуй. Поєднай з відповідними знаками.

		
>	<	=