தாசெக் பெர்மாய் தமிழ்ப்பள்ளி, பினாங்கு

கணிதம்
ஆண்டு 5

தலைப்பு:வடிவியல்
கற்றல் தரம்: 15.1(i)
பெயர்: _____

சுற்றளவைக் கண்டறிக.
(கொடுக்கப்பட்ட சதுரங்கள் அனைத்தும் சமப்பக்க சதுரங்கள் ஆகும்)

1. 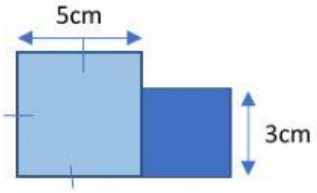	2. 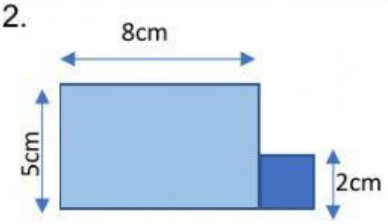
3. 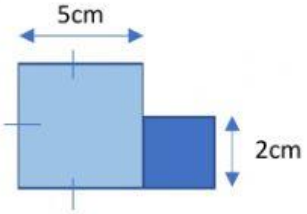	4. 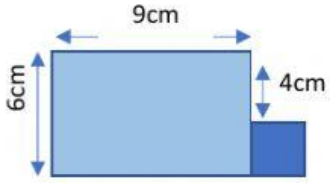
5. 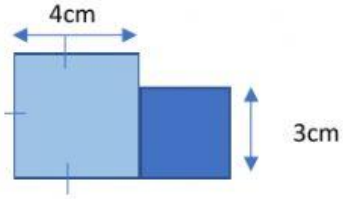	6. 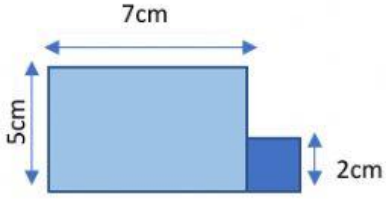
7. 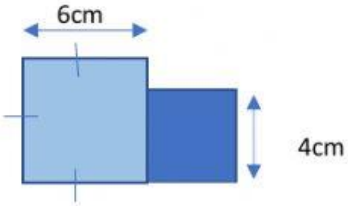	8. 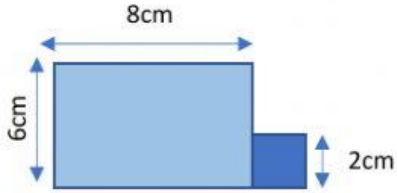

ஆக்கம்: புருஷோத்தமன் முனுசாமி