Більше. Менше. Дорівнює

> - більше
< - менше
= - дорівнює

1. Порівняй. Упиши потрібні знаки.



2. Упиши пропущені числа.

1 ☐ ☐ 4 ☐ ☐ 7

7 ☐ 5 ☐ ☐ 2 ☐

3. Полічи фігури. Упиши потрібні знаки.

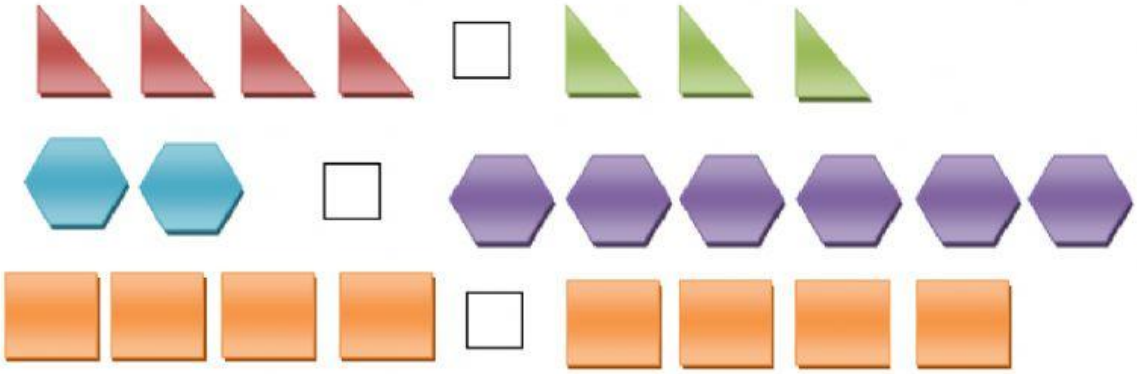
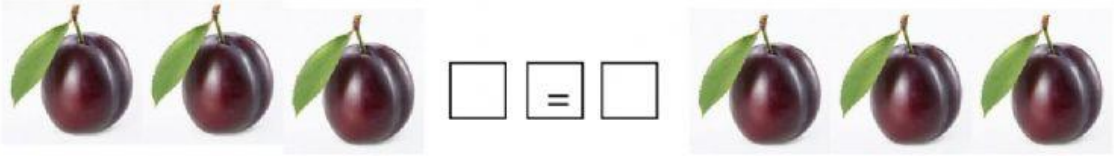
4. Упиши потрібні числа.