NAMA:_____ KELAS ;_____

TARIKH: 26.11.2020 MASA: 8.00-9.00 PAGI

SAINS TAHUN 2 : TEKNOLOGI

Sila tonton video dibawah ini sebelum melaksanakan aktiviti

Isikan tempat kosong dengan jawapan yang betul.

satu	komponen	manual bergambar
model binaan	banyak	

1 Satu set binaan boleh membina _____ model binaan.

2 Kit model menghasilkan _____ model binaan.

3 Set binaan yang berbeza mempunyai _____ yang berlainan.

4 _____ ialah panduan memasang set binaan dengan mudah dan cepat.

5 Dengan menggunakan manual semasa memasang model, kita boleh mengenal pasti _____ yang diperlukan.

Padankan langkah – langkah pemasangan model binaan kapal laut berdasarkan rajah dibawah

- Keluarkan komponen yang diperlukan daripada kotak set binaan
- Model kapal laut yang siap dipasang berpandukan manual bergambar
- Cantumkan semua bahagian yang telah siap dipasang
- Pasangkan bahagian kepala, badan dan ekor model kapal laut

1



2



3



4


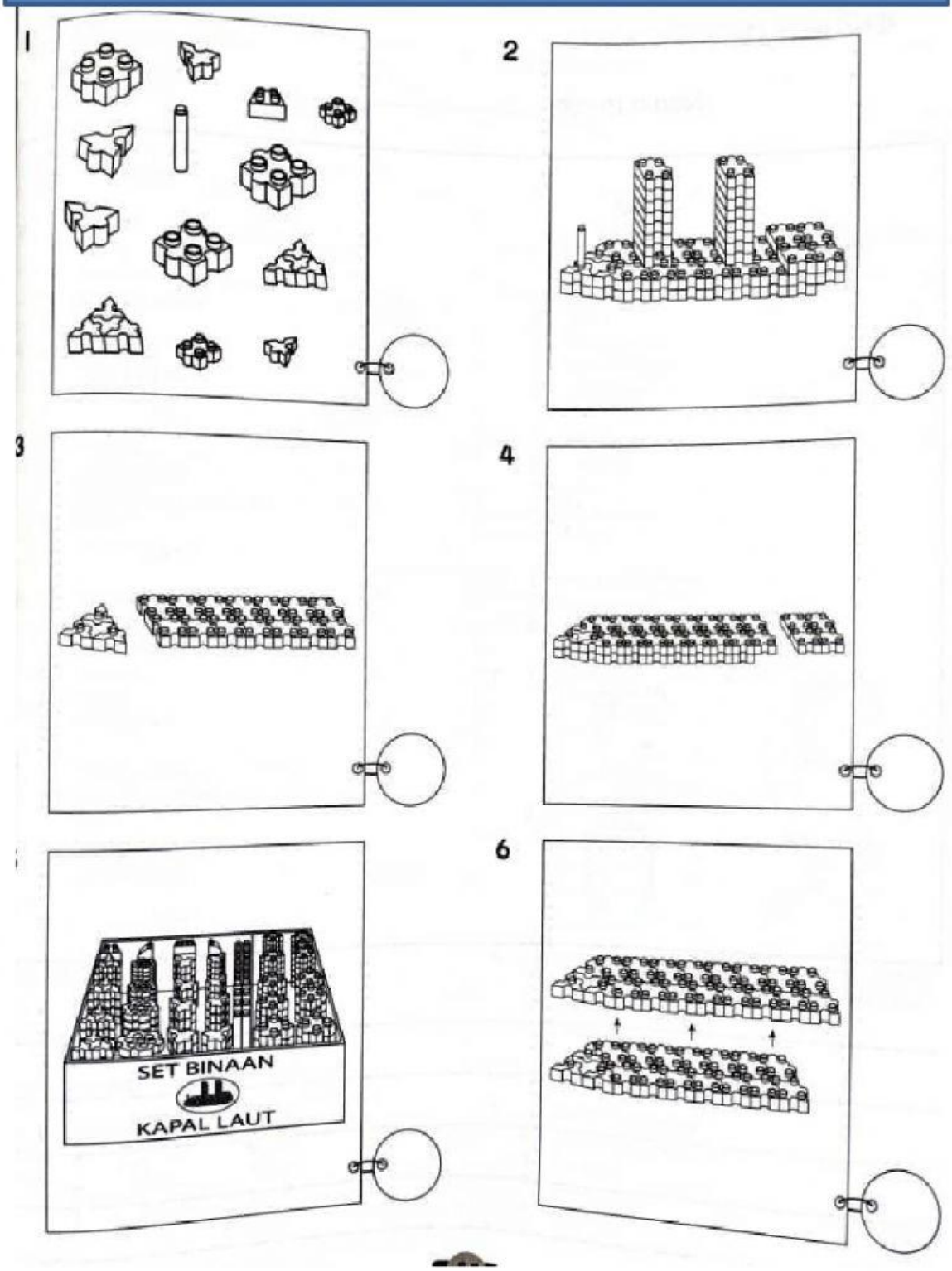
Susun langkah-langkah membuka model kapal laut berdasarkan rajah dibawah