ESCUELA SECUNDARIA GENERAL N° 21
"JOVITA A. ELGUERO"

VOLUMEN DE PRISMAS Y CILINDROS

El **volumen** de una figura prismática es igual al área de la base por la altura. El **volumen** de los **prismas** y los **cilindros**, al ser figuras prismáticas, es igual al área de la base por la altura expresada en unidades elevadas al cubo (cm^3, dm^3, m^3, etc.)

1. Calcula el volumen de los siguientes prismas sus respectivas unidades de medida.

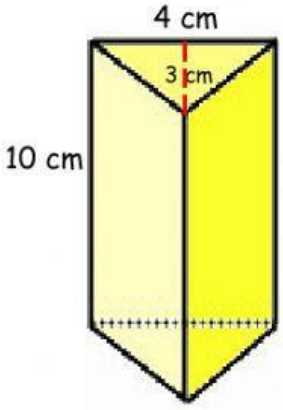

Volumen: _____

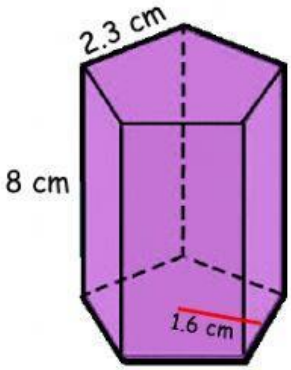

Volumen: _____

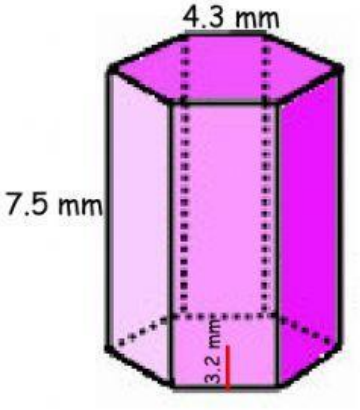

Volumen: _____

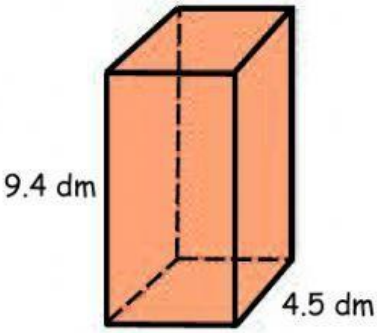

Volumen: _____

2. Calcula el volumen de los siguientes cilindros sus respectivas unidades de medida.
$\pi = 3.14$

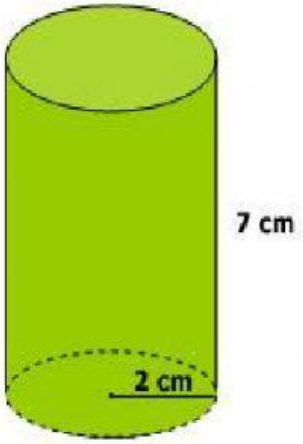

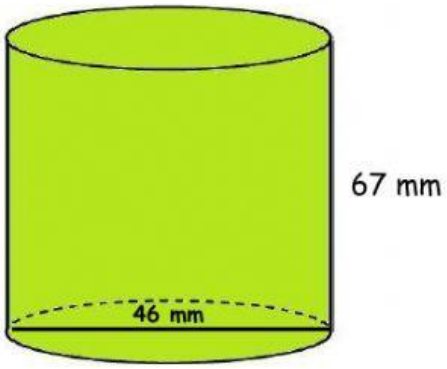

Volumen: _____

Volumen: _____