Evaluación de rendimiento Ciencias Sociales 5to Grado

I- Localiza en el mapa los nombres de los océanos y continentes del mundo.

1 Océano Atlántico

2 Océano Pacífico

3 Océano Índico

4 Océano Glacial Ártico

5 Océano Glacial Antártico

6 América

7 Asia

8 Europa

9 Oceanía

10 Antártida

11 África

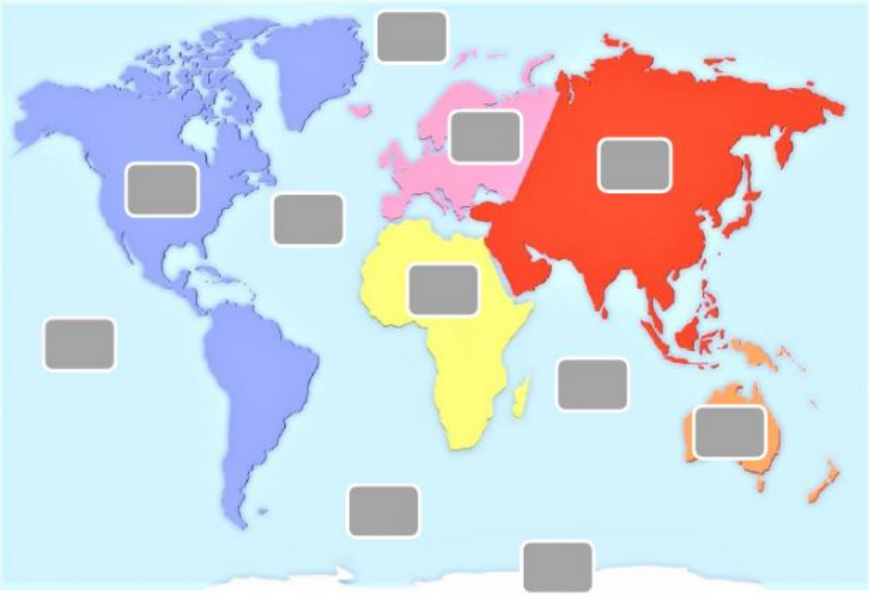

II- Selecciona la respuesta correcta.

1. ¿Cuál es el río más largo de América?

2. ¿Cómo se llama la región donde se concentra los principales lagos del continente americano?

3. ¿Cuáles son los países más desarrollados de todo el continente?

4. ¿Cómo está compuesta la población americana?

5. ¿Cuáles son las zonas de menor población en América?

6. ¿Cuáles son las zonas de mayor población en América?

7. ¿Cuál es la cordillera más larga del mundo?

8. Nombre del pico más alto de América.

III- Coloca el número de cada país, en el lugar correspondiente del mapa.

1 Canadá

2 Haití

3 Cuba

4 Venezuela

5 México

6 Brasil

7 República Dominicana

8 Chile

9 Estados Unidos

10 Argentina

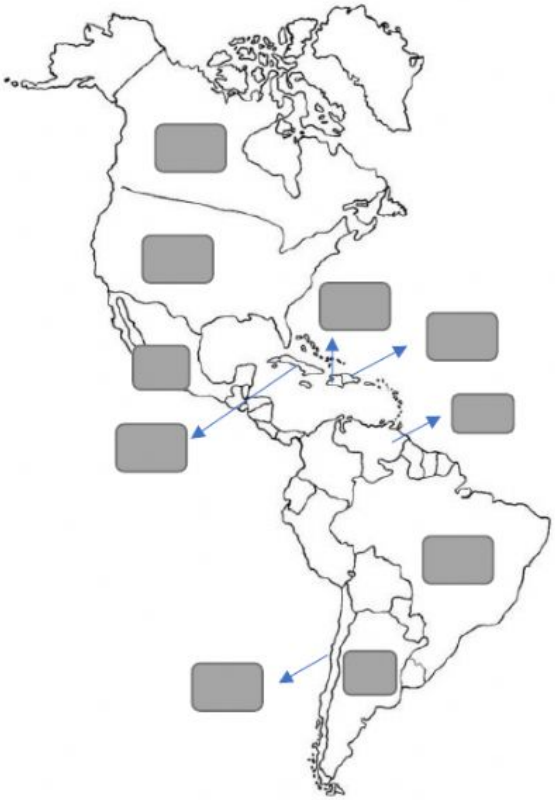

IV. Identifica los límites del continente Americano.

V. Identifica el tipo de clima.

1. Clima con temperaturas alrededor de 30 grados C y lluvias todo el año. Es propio de la Amazonía y costas tropicales del continente. Es propio de la amazonia y costas tropicales del continente.

2. Clima con temperaturas muy elevadas con gran oscilación térmica (hasta 40° C) y las precipitaciones son casi inexistentes.

3. Clima que varía en función a la altitud del terreno y la exposición de las montañas.

4. Clima con temperaturas altas en verano y suaves den invierno. Precipitaciones concentradas en primavera y otoño.

VI. Identifica los relieves principales de América en el mapa, colocando el número.

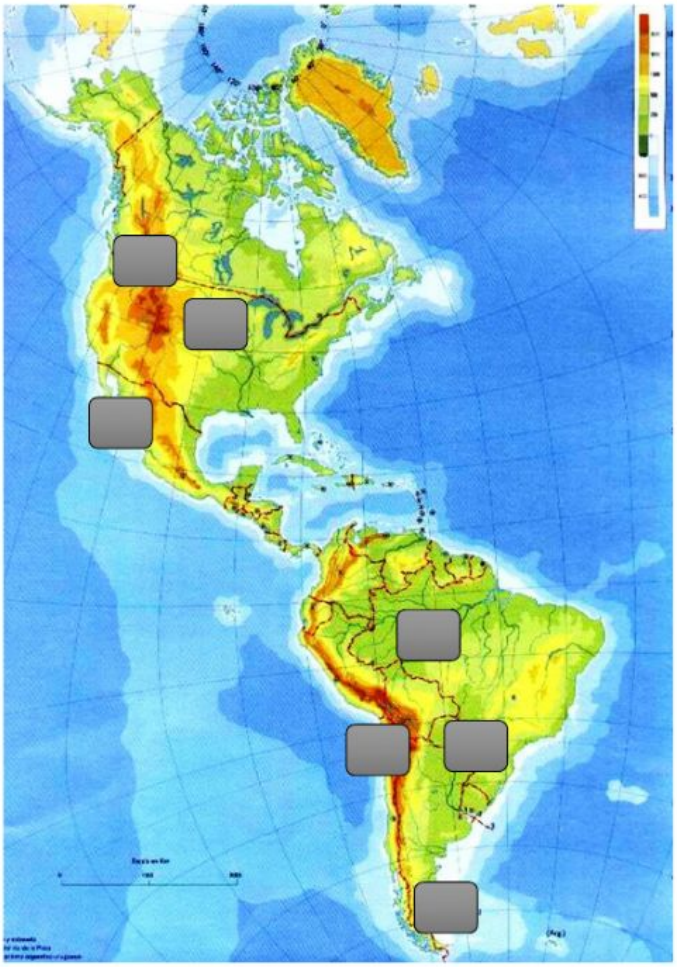

1 Patagonia

2 Montañas Rocosas

3 Cordillera de los Andes

4 La gran llanura

5 Llanura amazónica

6 Sierra madre occidental

7 El gran Chaco

VII. Selecciona las características correspondientes a las regiones culturales y sociales del continente americano.

- América anglosajona.

- América Latina.

- Hispanoamérica.

- Iberoamérica

VIII. Ordena los procesos de producción de leche y clasifica los sectores económicos a los cuales corresponden cada uno.

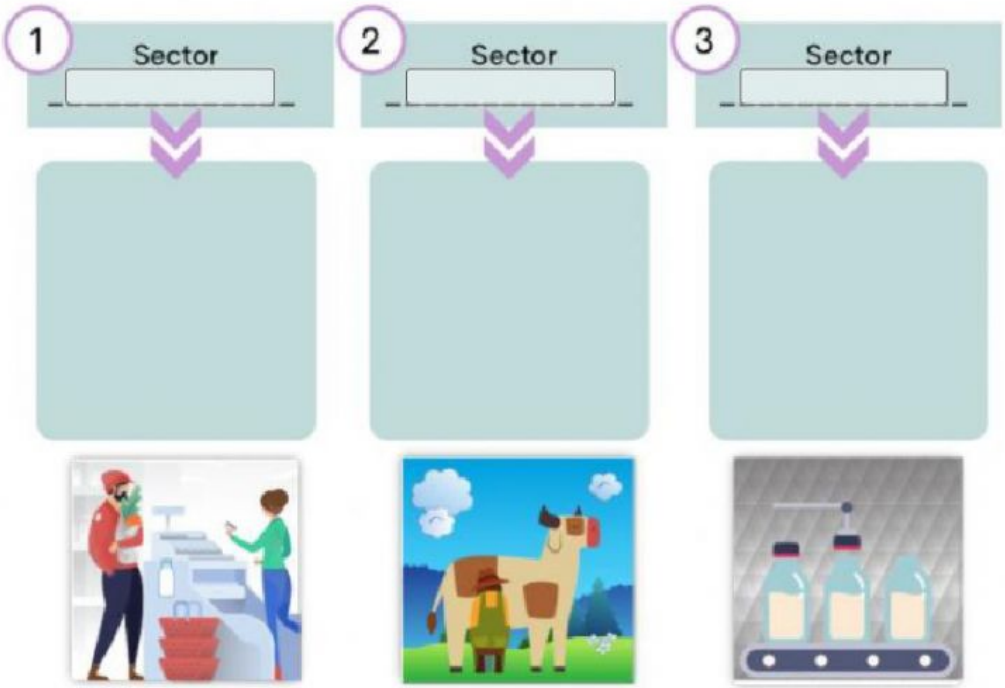

IX. Organiza la siguiente línea de tiempo con las etapas de la historia y colócale en la parte superior la imagen que indica con qué hecho inicia cada etapa.



X. Escribe (V) si el enunciado es verdadero y (F) si el enunciado es falso.

1. La prehistoria se divide en tres períodos llamados paleolítico, neolítico y la edad de los metales.

2. Las siguientes características pertenecen al período neolítico: aparecen los primeros seres humanos, eran nómadas, elaboraban herramientas de piedra y huesos, descubrieron el fuego y aprendieron a utilizarlo.

3. Las siguientes características pertenecen al período edad de los metales: las personas aprendieron a elaborar objetos de metales. (cobre, bronce e hierro), algunas aldeas se convirtieron en pequeñas ciudades, inventaron carros, la vela y el arado.

4. La rueda fue un invento elaborado en el período neolítico.

5. La agricultura y la ganadería surge con el asentamiento de los seres humanos en el período neolítico.