الفصل الدراسي	الاول	المادة	رياضيات 1	الدرس	المتباينات في مثلثين

اسم الطالب		الفصل		الدرس	

السؤال الأول : -

قارن بين القياسين المحددين في كل من السؤالين الآتيين :

1	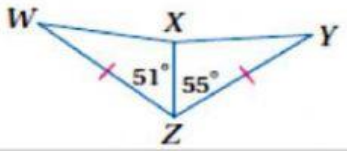 WX, XY	wx	xy
2	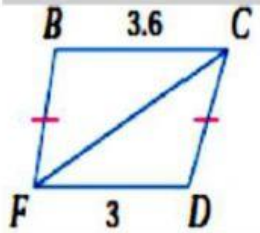 m∠FCD, m∠BFC	<FCD	<BFC
3	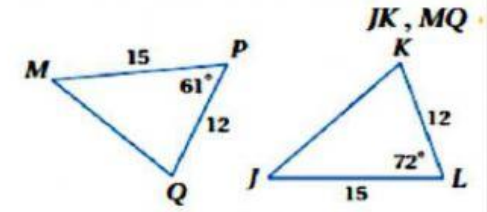 JK, MQ	JK	MQ
4	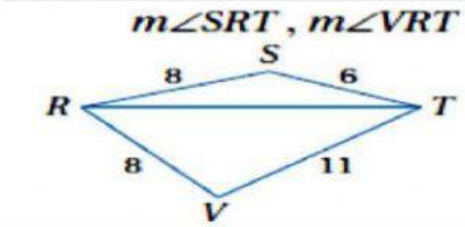 m∠SRT, m∠VRT	<SRT	<VRT
5	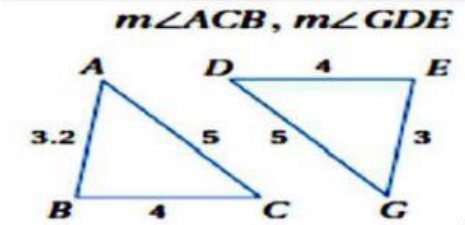 m∠ACB, m∠GDE	<ACB	< GDE
	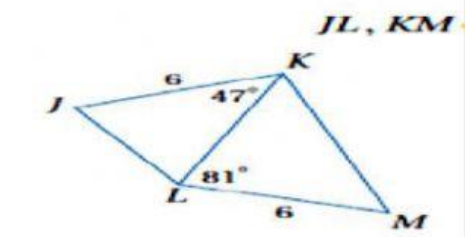 JL, KM	JL	KM

معلم المادة	ناصف احمد / احمد سالم	المشرف التربوي	ا/ محمد جاب الله