PENILAIAN HARIAN TEMA 5 (WIRAUSAHA)
TAHUN PELAJARAN 2019/2020

I. Berilah tanda silang (×) pada huruf A, B, C atau D pada jawaban yang paling benar!

1. Hari ini Udin, Edo, Beni, Siti, Dayu, Lani memperoleh kesempatan untuk berkunjung di pameran budaya ASEAN. Mereka sangat senang sekali melihat-melihat anjungan pameran tersebut. Udin menghabiskan waktunya untuk melihat-melihat anjungan khusus yang di kelola oleh ASEAN. Anjungan tersebut menampilkan berbagai kerajinan dari berbagai negara ASEAN.

   Edo terkesan dengan berbagai makanan khas negara-negara ASEAN. Makanan khas tiap negara menunjukkan ciri khas sumber daya alamnya

   Beni tertarik dengan anjungan dari Negara Brunei Darusalam yang menampilkan wayang asik.

   Keragaman wirausaha yang ditampilkan pada pameran negara-negara Asean adalah….
   A. jasa dan pertanian
   B. kuliner dan kerajinan
   C. pertanian dan industri
   D. kerajinan dan elektronik

2. Di lingkungan tempat tinggal Pak Komang, terdapat beberapa perkantoran dan Sekolah Menengah Atas. Pak Komang ingin membuka wirausaha untuk meningkatkan perekonomian keluarganya.

   Wirausaha yang cocok dikembangkan oleh Pak Komang adalah….
   A. salon atau bengkel
   B. tukang jarit atau toko pakaian
   C. menjual alat tulis atau usaha fotocopy
   D. menjual kebutuhan pokok sehari-hari dan jual beli mobil

3. 1. toko bangunan 4. warung nasi
   2. ojek online 5. tukang jarit
   3. tempat potong rambut 6. pedagang sayur

   Bidang usaha jasa ditunjukkan oleh nomor….
   A. 2, 3, dan 5
   B. 1, 4, dan 6
   C. 1, 4, dan 5
   D. 1, 2 dan 3

4. Pak Gunawan mempunyai wirausaha kerajinan anyaman di desanya. Kualitas anyamannya cukup bagus dan motif-motifnya sangat menarik. Sayang, barang-barang kerajinan Pak Gunawan masih banyak menumpuk di gudang. Sebenarnya ia ingin memasarkan ke kota, tapi hal ini akan menambah biaya produksi dan membuat harga barang kerajinannya lebih mahal.

   Tindakan yang tepat diambil oleh Pak Gunawan terhadap masalah tersebut adalah….
   A. menurunkan harga produknya
   B. memberika diskon/ potongan harga
   C. mempromosikan lewat media elektronik
   D. mengadakan pameran kerajinan di desanya

5. Ibu Made Yuliani adalah seorang tokoh wirausaha Bali yang memulai usahanya dengan mengumpulkan bunga-bunga kering yang berjatuhan disekitar tempat tinggalnya di Pulau Dewata. Berawal dari rangkaian bunga kering, usahanya kini berkembang pesat dan menghasilkan aneka produk pewangi. Seperti sabun, alami, pelembab tubuh, serta pewangi ruangan. Pelanggan produknya tidak hanya berasal dari dalam negeri, namun banyak juga dari mancanegara.

   Manfaat wirausaha Ibu Made Yuliani bagi masyarakat dan lingkungan adalah….
   A. membuka lapangan kerja baru dan mengurangi sampah
   B. menimbulkan persaingan terhadap wirausaha lain
   C. memotivasi warga membuka wirausaha yang sama
   D. mengurangi pencemaran lingkungan

   (Teks ini untuk menjawab soal no 6, dan 7)

   Gusti Ngurah Anom atau Cok Krisna merupakan salah satu wirausahawan yang sukses berbisnis konveksi dan oleh-oleh khas Bali. Walaupun hanya tamatan SMP, Cok Krisna mampu mengelola usaha konveksinya hingga berkembang pesat seperti saat ini. Cok Krisna merupakan pekerja keras. Untuk kemajuan usaha konfeksinya, Cok Krisna melibatkan para perancang untuk menciptakan desain karikatur pada kaosnya. Disain ini disesuaikan dengan selera pasar. Ini merupakan salah satu cara agar baju kaosnyanya tetap laris manis di pasaran. Sukses dengan usahanya tersebut, ia kembali memikirkan peluang bisnis yang lain. Idenya kemudian diwujudkan dalam bisnis oleh-oleh Bali bernama Krisna Oleh - Oleh Khas Bali yang berdiri sejak tahun 2007. Dalam waktu singkat, Krisna Oleh- Oleh Bali merupakan pusat oleh-oleh terbesar yang ada di Pulau Dewata dan telah dibuka dibeberapa tempat, termasuk di Buleleng,

6. Hal penting yang merupakan penunjang kesuksesan seseorang berdasarkan teks tersebut adalah...
   A. kita harus merantau , agar bisa menjadi wirausaha yang sukses
   B. tunjukan prestasi kerja agar kita mendapatkan hasil yang baik
   C. kita tidak boleh berputus asa, apabila mengalami kegagalan
   D. siapapun bisa menjadi sukses asalkan mau bekerja keras

7. Sikap kerjasama dalam berwirausaha ditunjukkan oleh Cok Krisna dalam ….
   A. pergi merantau ke kota untuk mengubah nasib
   B. menjalani berbagai pekerjaan untuk bertahan hidup
   C. mengajak perancang untuk mendisainer kartun pada baju kaosnya
   D. mengembangkan usaha lain dan membuka wirausaha diberbagai tempat

8. Yasa Paramita Singgih merupakan salah wirausaha muda yang sukses berbisnis kaos pria dengan merek Mens Republik. Bisnis pertama yang dijalani adalah jual lampu hias. Bisnis pertamanya tidak berjalan lancar dan dia beralih ke bisnis jual beli kaus pria. Dia berhasil mencapai pendapatan lebih dari 30 juta rupiah setiap bulan. Selanjutnya ia mencoba berbisnis kedai kopi. Tapi pendapatan dari bisnis ini menurun dan dia tidak melanjutkan usahanya. Kemudian Yasa Paramita Singgih kembali ke bisnis jual beli kaos pria dengan merek Mens Republik dan sukses sampai saat ini.

   Kunci sukses Yasa Paramita Singgih dalam berbisnis adalah….
   A. mempunyai semangat dan pekerja keras
   B. berinovasi, dan mengikuti perkembangan jaman
   C. memiliki jiwa kepemimpinan dan kemaunan keras
   D. patang menyerah, dan memiliki keberanian untuk mencoba

9. 1. menciptakan lapangan kerja
   2. terjadi persaingan harga antara pedagang
   3. meningkatkan perekonomian di masyarakat
   4. menghambat tumbuhnya usaha-usaha yang lain

   Manfaat keberagaman usaha yang ada di masyarakat berdasarkan pernyataan tersebut adalah ….
   A. 1 dan 2
   B. 2 dan 4
   C. 1 dan 3
   D. 3 dan 4

10. Sikap kita terhadap keragaman wirausaha yang ada di masyarakat adalah…
   A. melakukan persaingan harga antara wirausaha
   B. berusaha untuk mencari kelemahan wirausaha lain
   C. bekerja sama dan menjaga keberagaman wirausaha
   D. mencoba wirausaha lain untuk menghindari persaingan

11. Perpustakaan Widya Sari

   Nama :.....
   Tempat, tanggal lahir :.....
   Kelas : .....
   No anggota :.....
   No HP : ……..
   Alamat : .....

   …….

   Tanda tangan
   (nama lengkap)

   Formulir tersebut digunakan untuk ….
   A. menjadi anggota perpustakaan
   B. menjadi petugas perpustakaan
   C. mengikuti lomba di perpustakaan
   D. meminjam dan mengembalikan buku

12. Tujuan penggunaan huruf kapital pada pengisian formulir adalah….
   A. sesuai dengan aturan Bahasa Indonesia
   B. supaya kelihatan lebih indah dan rapi
   C. lebih jelas dan mudah dibaca
   D. memudahkan pengarsipkan

13. Edi Sujana lahir pada tanggal 20 maret 2010 di denpasar.
   Penulisan tempat dan tanggal lahir yang benar berdasarkan pernyataan tersebut adalah ….
   A. 20 Maret 2010, Denpasar
   B. 20 maret 2010, denpasar
   C. Denpasar, 20 Maret 2010
   D. Denpasar, 20 maret 2010

14. Perhatikan data berikut!

1. Kadek Surya Darmayanti
2. Jalan Ratna no 29 Singaraja
3. Denpasar, 22 Juli 20013
4. V
5. Gede Darma Putra, S.H
6. SD N 1 Cempaka Putih

Formulir Pendaftaran Lomba Bercerita

Nama :.....
Tempat, tanggal lahir :.....
Asal sekolah :.....
Kelas : .....
Nama orang Tua :.....
Alamat : .....

Urutan yang tepat untuk mengisi formulir berdasarkan data tersebut adalah....

A. 1,3,6,4, 5, dan 2
B. 1,2,5,3,4, dan 6
C. 5,3,4,1,6, dan 2
D. 5,2,6, 3,4, dan 1

15. Putu Satya Perwira lahir pada tanggal 17 Januari 2010 di Jakarta Ia memeluk agama Hindu. Putu sekarang tinggal di Jalan Mawar no 9 Gianyar. Saat ini ia adalah siswa kelas VI di SD Putra Bangsa dan berencana akan mendaftarkan diri ikut perkumpulan olah raga renang. Bapaknya Gede Budi Mulyawan sangat mendukung kegiatan anaknya.

Club Renang Pidada

Nama :..... (1)
Tempat , tanggal lahir :..... (2)
Alamat :..... (3)
Pendidikan :..... (4)
Agama :..... (5)

Data isian yang tepat untuk mengisi nomor 1 dan 3 berdasarkan narasi tersebut adalah….

A. Putu Satya Perwira , Jalan Mawar no 9 Jakarta
B. Putu Satya Perwira, Jalan Mawar no 9 Gianyar
C. Gede Budi Mulyawan, Jalan Mawar no 9 Gianyar
D. Gede Budi Mulyawan, Jalan Mawar no 9 Jakarta

16. 1. data diri
2. pengalaman ketrampilan
3. besarnya penghasilan
4. Prestasi yang pernah dicapai
5. Jenjang pendidikan

Informasi yang diperlukan dalam pengisian daftar riwayat hidup adalah….

A. 1,2, 3, dan 5
B. 1,2, 4, dan 5
C. 2, 3,4, dan 5
D. 1, 2, 3, dan 4

17. Kadek Citra Dewi lahir 12 tahun lalu, tepatnya tanggal 12 Agustus di Singaraja. Saat ini ia duduk di kelas IV di SD N Mutiara. Kadek Citra Dewi tinggal bersama ibunya yang bernama Putu Ayu Laksmi di Jalan Kutilang Gang Jalak Singaraja.

Penulisan daftar riwayat hidup berdasarkan narasi tersebut adalah….

A. Nama : Kadek Citra Dewi
Tempat, tanggal lahir : Singaraja, 12 Agustus 2017
Asal sekolah : SD N Mutiara
Kelas : IV
Alamat : Jl. Kutilang Gang Jalak Singaraja

B. Nama : Kadek Citra Dewi
Tempat, tanggal lahir : Singaraja, 12 Agustus 20016
Asal sekolah : SD N Mutiara
Kelas : IV
Alamat : Jl. Kutilang Gang Jalak Singaraja

C. Nama : Kadek Citra Dewi
Tempat, tanggal lahir : 12 Agustus 2017, di Singaraja
Asal sekolah : SD N Mutiara
Kelas : IV
Alamat : Jl. Kutilang Gang Jalak Singaraja

D. Nama : Putu Ayu Laksmi
Tempat, tanggal lahir : Singaraja, 12 Agustus 2017
Asal sekolah : SD N Mutiara
Kelas : IV
Alamat : Jl. Kutilang Gang Jalak Singaraja

18. Informasi penting yang ada pada formulir pengiriman barang adalah….
A. barang yang dikirim, alamat dan identitas pengirim, alamat dan identitas penerima barang dan jenjang pendidikan
B. alamat dan identitas pengirim, alamat dan identitas penerima barang dan kegiatan yang diikuti
C. barang yang dikirim, alamat, dan identitas pengirim, alamat dan identitas penerima barang
D. barang yang dikirim, kegiatan yang diikuti dan identitas pendaftar

19. Tujuan menuliskan kode pos pada formulir pengiriman barang adalah….
A. untuk menghubungi si pengirim barang bila ada masalah
B. mempercepat sampai pengiriman barang ke penerima
C. memudahkan mencari alamat si pengirim barang
D. memudahkan mencari alamat si penerima barang

20. 1. Isilah hanya dengan pensil 2b
2. Lembar jawaban tidak boleh kotor, basah, robek, atau dilipat
3. Jawablah dengan memberi tanda silang (x) pada salah satu kotak atau lebih
4. Jika jawaban salah (isi tanda =) kemudianlah silanglah kembali (X) pada kotak yang benar
5. Tulislah nama nomor peserta, tanggal lahir pada kolom yang disediakan, lalu silanglah (x) dibawahnya sesuai dengan angka di atasnya.

Petunjuk yang benar pengisian formulir lembar jawaban ujian tersebut adalah….
A. 1, 2, dan 3
B. 1, 2, dan 5
C. 2, 3, dan 5
D. 3, 4, dan 5

21.

1 2 3 4

Berdasarkan gambar tersebut, magnet yang digunakan untuk membuat kompas adalah….
A. 1
B. 2
C. 3
D. 4

22.

No	gambar	Nama magnet
1		a.silinder
2		b.batang
3		c.ladam
4		d.jarum

Berdasarkan tabel tersebut, pasangan yang tepat adalah….
A. 1c, 2d, 3a, 4b
B. 1c, 2a, 3b, 4d
C. 1d, 2b, 3a, 4c
D. 1a, 2c, 3b, 4d

23

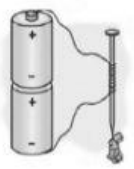

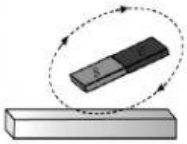

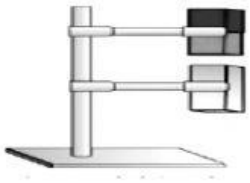

1 2 3

Berdasarkan gambar tersebut, cara membuat magnet dengan gambar yang tepat adalah….

A. (1) induksi, (2) menggosok, (3) elektromagnet
B. (1) elektomagnet, (2) menggosok, (3) induksi
C. (1) konduksi, (2) menggosok, (3) induksi
D. (1) menggosok, (2) konduksi, (3) elektromagnet

24. Bacalah dengan cermat!
Desi dan teman-temannya melakukan percobaan membuat magnet dengan cara mengalirkan arus listrik. Hasil percobaannya seperti pada tabel berikut
Tabel hasil percobaan

No	Jumlah lilitan	Jumlah paku kecil yang menempel
1.	5 lilitan	3
2	10 lilitan	6
3	20 lilitan	12

Kesimpulan hasil percobaan berdasarkan tabel tersebut adalah…

A. banyaknya lilitan tidak berpengaruh terhadap paku yang menempel
B. semakin banyak lilitan , semakin banyak paku yang menempel
C. jumlah paku yang menempel tidak selalu sama
D. lilitan dan paku saling mempengaruhi

25. Putu melakukan suatu percobaan, dia mengambil magnet, dan beberapa benda seperti pensil, karet gelang, kaca, sisir, gunting, penjepit kertas, dan peniti. Kemudian ia mendekatkan benda-benda tersebut secara bergantian . Dari kegiatan tersebut ada benda yang tertarik dengan magnet ada yang tidak.
Tujuan percobaan yang dilakukan oleh Putu adalah….

A. mengetahui kutub magnet
B. mengetahui besarnya gaya magnet
C. menentukan benda untuk membuat magnet
D. mengidentifikasi benda magnetis dan nonmagnetik

26. Yang dimaksud dengan medan magnet adalah ….

A. kekuatan gaya pada magnet
B. zat-zat yang menyusun magnet
C. daerah yang dipengaruhi oleh gaya magnet
D. daerah yang paling besar gaya magnetnya

27. Perhatikan benda-benda berikut!

1. Seng	4. Karet
2. Kayu	5. Kaca
3. Paku	6. Peniti

Kelompok benda nonmagnetis ditunjukkan oleh angka….

A. 1, 2, 3, dan 4
B. 1, 2, 4, dan 5
C. 1, 3, 5, dan 6
D. 2, 4, 5 dan 7

28.

Gambar tersebut untuk membuktikan sifat magnet…

A. dapat menembus benda penghalang
B. menarik benda –benda tertentu
C. mempunyai gaya tarik
D. mempunyai kutub

29. Cara membuktikan bahwa kutub magnet senama tolak menolak adalah….

A. mengosok-gosok 2 kutub magnit berulang-ulang
B. meletakan dua magnet dengan jarak tertentu
C. mendekatkan antara kutub utara dan selatan
D. mendekatkan 2 kutub magnet yang senama

30. Pemanfaatan sifat magnet mampu menembus benda dalam kehidupan sehari-hari adalah….

A. kompas digunakan untuk menunjukan arah utara dan selatan
B. perubahan energi gerak menjadi listrik pada dinamo
C. ujung gunting untuk mengambil jarum yang jatuh
D. pintu kulkas dapat ditutup dengan rapat

31. Dampak positif dari adanya pameran budaya ASEAN bagi perekonomian suatu negara adalah….

A. mempererat rasa persaudaran
B. memperkenalkan budaya suatu negara
C. mengurangi ketergantungan barang impor
D. meningkatkan kunjungan wisata dan devisa negara

32. Kegiatan pembangunan infrastruktur dalam mendukung SEA Games ke-26 berpengaruh pada tumbuhan….

A. ekonomi
B. kebudayaan
C. perdagangan
D. pertahanan

33. Pembangunan hotel-hotel baru sebagai persiapan sarana dan prasarana SEA Games ke - 26 di Palembang memberikan dampak kepada….
   A. meningkatkan kunjungan wisata
   B. prestasi atlet yang bertanding
   C. kesuksesan penyelenggaraan
   D. terserapnya tenaga kerja

34. Alasan suatu negara mengadakan kerjasama dengan negara lain adalah….
   A. untuk meningkatkan keamanan suatu negara
   B. menjalin persatuan yang lebih erat dengan negara lain
   C. suatu negara tidak bisa memenuhi segala kebutuhannya sendiri
   D. untuk menghindari serangan dan ancaman yang datang dari luar negeri

35. Mengimpor adalah….
   A. kegiatan memproduksi barang dagangan dalam jumlah banyak
   B. kerjasa sama dalam pemenuhan barang dagangan suatu negara
   C. kegiatan mendatangkan barang dagangan dari luar negeri
   D. kegiatan mengirimkan barang dagangan dari negeri

36. Perhatikan data berikut!
   1. Gerabah dan keramik Desa Kasongan
   2. Kain sutra
   3. Batik
   4. Patung

   Komoditas kerajinan Indonesia yang bisa menembus pasar luar negeri adalah ….
   A. 3 dan 4
   B. 1 dan 3
   C. 1 dan 2
   D. 2 dan 3

37. Perhatikan komoditas berikut!
   1. Minyak
   2. Gas bumi
   3. Karet
   4. Batu bara
   5. minyak sawit

   Komoditas ekspor nonmigas ditunjukkan oleh angka ….
   A. 1,3, dan 5
   B. 1,2,dan 5
   C. 3, 4, dan 5
   D. 2, 3, dan 4

38. Keuntungan diadakannya MEA adalah….
   A. menciptakan lapangan kerja baru
   B. meningkatkan perdagangan impor dan ekspor
   C. membuka peluang untuk mengadakan pasar bebas
   D. memudahkan perdagangan barang, dan jasa di negara ASEAN